الفصل الاول

مستعملي الطريق

1 هل يعتبر هذا الشخص سائق ام مشاة ؟

- مشاة
- سائق

2 هل يعتبر هذا الشخص سائق ام مشاة ؟

- مشاة
- سائق

3 شخص يمسك الدراجة الهوائية بيدة.
هل هو سائق ام مشاة ؟

- مشاة
- سائق

4 شخص يسير مع كلبة على الطريق.
هل هو سائق ام مشاة ؟

- مشاة
- سائق

5 شخص يسير مع حصانة على الطريق.
هل هو سائق ام مشاة ؟

- مشاة
- سائق

6 شخص يركب على حصانة. هل هو
سائق ام مشاة ؟

- مشاة
- سائق

7 شخص على الطريق يسير مع حذائة
ذو العجلات. هل يعتبر هذا الشخص
سائق ام مشاة ؟

- مشاة
- سائق

8 شخص يسير على الطريق يمسك الدراجة ذات المحرك بيدة. هل هو سائق ام مشاة ؟

- ☐ مشاة
- ☐ سائق

9 شخص يقود الدراجة الهوائية. هل هو سائق ام مشاة ؟

- ☐ مشاة
- ☐ سائق

10 شخص متوقف لكنة يجلس على الدراجة الهوائية. هل هو سائق ام مشاة ؟

- ☐ مشاة
- ☐ سائق

11 شخص يقود عربة المعاقين على الشارع. هل يعتبر هذا الشخص سائق ام مشاة ؟

- ☐ مشاة
- ☐ سائق

1 شخص يقود عربة المعاقين على طريق دراجات الهوائية. هل هو سائق ام مشاة ؟

- ☐ مشاة
- ☐ سائق

1 شخص يقود عربة المعاقين على الرصيف. ل هو سائق ام مشاة ؟

- ☐ مشاة
- ☐ سائق

1 شخص يقود العربة ذات المحرك. هل تبر سائق ام مشاة ؟

- ☐ مشاة
- ☐ سائق

1 شخص يقود عربة اطفال. هل يعتبر ائق ام مشاة ؟

- ☐ مشاة
- ☐ سائق

1- مشاة : شخص يسير على قدمية يعتبر من المشاة حتى اذا كان ماسكا بيدة دراجة هوائية او نارية.
2- سائق : اي شخص يقود دراجة هوائية او نارية يعتبر سائق حتى اذا كان جالسا عليها.
3- مشاة : الشخص الذي يمسك الدراجة الهوائية او النارية بيدة يعتبر من المشاة لكن اذا جلس عليها يعتبر سائق حتى وان كان لا يسير بها.
4- مشاة : الشخص الذي يسير مع الكلب او القطة في الطريق يعتبر من المشاة ما عدا الحصان. والماشية (الابقار والغنم) يعتبر سائق.
5- سائق : الشخص الذي يسير او يركب على الحصان يعتبر سائق وكذلك الماشية (الابقار والاغنام).
6- سائق : الشخص الذي يركب على الحصان او يسير بجانبة يعتبر سائق وكذالك الماشية (الابقار والاغنام).
7- مشاة : الشخص الذي يسير مع الحذاء ذو العجلات يعتبر من المشاة ويحق لة ان يسير على الرصيف او على طريق الدراجات الهوائية اما اذا لم يكن هناك رصيف او طريق للدراجات فيحق لة السير على الشارع وهنا ايضا يعتبر من المشاة.
8- مشاة : الشخص الذي يمسك الدراجة النارية او الهوائية بيدة يعتبر من المشاة. لكن الذي يقودها او يجلس عليها يعتبر سائق.
9- سائق : الشخص الذي يقود الدراجة الهوائية او النارية يعتبر سائق.
10- سائق : اي شخص يجلس على الدراجة الهوائية او النارية يعتبر سائق وفي هذة الصورة لايعطى حق الاسبقية للعبور من على خطوط عبور المشاة.
11- سائق : الشخص الذي يقود عربة ذوي الاحتياجات الخاصة او المعاقين يعتبر سائق اذا كان يقود على الشارع او على طريق الدراجات ويعتبر من المشاة اذا كان يسير على الرصيف. اذا يجب اعطائة الاولوية في تقاطع الطرق او على منطقة عبور المشاة.
12- سائق : الشخص الذي يقود عربة المعاقين على طريق الدراجات يعتبر سائق والذي يقودها على الرصيف يعتبر من المشاة.
13- مشاة : الشخص الذي يقود عربة المعاقين على الرصيف يعتبر من المشاة ويجب اعطائة الاولوية على خطوط عبور المشاة. اما اذا كان يقود على الشارع فيعتبر سائق ويجب اعطائة الاسبقية على تقاطع الطرق اذا كانت لة الاسبقية.
14- سائق : الشخص الذي يقود العربة ذات المحرك يعتبر سائق. السرعة القصوى لهذة العربة 45 كم في الساعة داخل وخارج المدينة. اذا يحق لها داخل المدينة ان تسير على الشارع وليس على طريق الدراجات ويحق لها خارج المدينة ان تسير على طريق الدراجات فقط وليس على الشارع او الخطوط السريعة.
15- مشاة : الشخص الذي يقود عربة اطفال يعتبر من المشاة.

الفصل الثاني

العلامات المرورية

علامات السرعة

السرعة القصوى

نهاية السرعة القصوى

السرعة
التي ينصح بها

نهاية
السرعة التي ينصح بها

في هذة المنطقة او الحي
السرعة القصوى هي 30 كلم في
الساعة

في هذة المنطقة او الحي
السرعة القصوى هي 60 كلم في
الساعة

السرعة القصوى تعطى
عن طريق لوحة الكترونية

حق الاسبقية

لك حق الاسبقية

لك حق الاسبقية من اليسار واليمين

ليس لك حق الاسبقية بعد هذة العلامة

لك حق الاسبقية من اليسار

لك حق الاسبقية من اليمين

اعطاء حق الاسبقية للسائقين

قف واعطي حق الاسبقية للسائقين

علامات المنع

لافتات تفرض قانون المنع او الاجبار شكلها دائري احمر وبداخلة الرسم الذي يفرض علية المنع

ممنوع دخول الدراجات النارية

ممنوع دخول الدراجات الهوائية

ممنوع دخول الدراجات النارية والهوائية وعربات المعاقين ذات المحرك

ممنوع دخول الدراجات النارية وعربات المعاقين ذات المحرك

ممنوع الدخول على السائقين من جهتين الطريق

طريق لة اتجاة واحد ممنوع دخول السائقين من هذا الاتجاة

ممنوع دخول وسائل النقل والتي لها اكثر من عجلتين

ممنوع دخول الشاحنات

ممنوع دخول وسائل النقل التي لا تزيد سرعتها عن 25 كم في الساعة

ممنوع دخول المشاة

ممنوع الدخول على وسائل النقل التي يزيد عرضها عن الرقم المكتوب

ممنوع على وسائل النقل التي يزيد طولها الاجمالي الرقم المكتوب على اللوحة

طريق ذو اتجاة واحد لايحق لك الرجوع الى الوراء

ممنوع الدخول على الدراجات النارية والهوائية وعربات المعاقين

ممنوع دخول كل وسائل النقل ذات المحرك

ممنوع على الخيل والماشية وعلى وسائل النقل التي لاتزيد سرعتها عن 25 كم والدراجات النارية والهوائية وعربات المعاقين

ممنوع على وسائل النقل ذات المحرك والتي تجر ورائها عربات

ممنوع الدخول على وسائل النقل التى تنقل مواد خطيرة معينة

ممنوع دخول وسائل النقل التي يزيد ارتفاعها عن الرقم المكتوب

ممنوع على وسيلة نقل او مجموعة من وسائل النقل التي يزيد مجموع وزنها على ما تشير الية اللوحة

ممنوع الدخول على وسائل النقل التي يزيد وزنها على ما مكتوب في اللوحة

طريق لها اتجاة واحد وهو باتجاة السهم

طريق ذو اتجاهين



خانة اليمين مفتوح



الخانة اليمين مغلقة لا يسمح السير فية

غادر خانة اليمين الى اليسار

الاتجاهات

الاتجاة الاجباري للسير توضع عند الدوار

يجب اتباع اتجاة السهم

يجب تتبع احد الاتجاهين ولا يسمح لك الذهاب الى اليسار حتى اذا كان هناك شارع جانبي

يجب تتبع احد الاتجاهين التي يشير اليها السهم

يجب تتبع الاتجاة المشار الية لا يسمح لك بالاتجاة لليمين او لليسار حتى اذا كان هنالك شارع جانبي

يسمح للسائق بالمرور على كلا الجهتين. توضع العلامة اذا كان الشارع مقسوم الى قسمين

يجب على السائق المرور على الجهة التي يشير اليها السهم

علامات الوقوف والتوقف

ممنوع التوقف (الباركين)

ممنوع الوقوف والتوقف

ممنوع توقف الدراجات الهوائية والنارية

منطقة ممنوع التوقف فيها ماعدا الاماكن المسموح فيها من الساعة 9 الى 12

مكان مخصص لتوقف عربات المعاقين

مكان مخصص لتوقف السيارات

مكان لشحن وتفريغ البضائع

مكان مخصص لتوقف سيارات التاكسي

مكان مخصص لتوقف السيارات خاص للذين يحملون تصريح بذلك

مكان مخصص لتوقف السيارات ومواصلة السفر بواسطة وسائل النقل العام

مكان مخصص لتوقف السيارات

مكان مخصص لتوقف السيارات والسفر مع شخص اخر في سيارة

التوقف لفترة محددة حسب الوقت المشار الية في اللوحة مع استعمل قرص خاص بذلك

نهاية التوقف المحدود

علامات منع اخرى

ممنوع تجاوز السيارات والدراجات النارية

نهاية المنع لتجاوز السيارات والدراجات النارية

ممنوع على الشاحنات تجاوز السيارات والدراجات النارية

نهاية المنع على الشاحنات لتجاوز السيارات والدراجات النارية

يجب عليك اعطاء الاسبقية لجميع السائقين القادمين من الجهة المقابلة

لديك حق الاسبقية على جميع السائقين القادمين من الجهة المقابلة لك

ممنوع الالتفاف والعودة لكن مسموح الذهاب الى اليمين او اليسار

قف : عادتا يستعملها اشخاص لتوقيفك مثلا لعبور طلاب المدارس الخ

علامة تدل على نهاية كل الممنوعات التي سبقت

لوحة الكترونية تدل على نهاية كل الممنوعات التي سبقت

داخل المدينة

علامة يكتب عليها اسم المدينة التي سوف تدخلها. السرعة القصوى داخل المدن هية 50 كم في الساعة ابتداء من هذة العلامة.
يجب اعطاء حق الاسبقية لحافلة نقل الركاب داخل المدينة

علامة يكتب عليها اسم المدينة التي سوف تخرج منها. تصبح السرعة القصوى خارج المدينة 80 كم في الساعة.
لك حق الاسبقية على حافلة نقل الركاب خارج المدينة

قوانين السير

طريق للدراجات غير اجباري

نهاية الطريق الغير اجباري للدراجات

الطريق السريع السرعة القصوى على الخط السريع هية 130 كم في الساعة

نهاية الطريق السريع

طريق السيارات. السرعة القصوى على طريق السيارات هية 100 كم في الساعة

نهاية طريق السيارات

منطقة سكنية. السرعة القصوى هنا هية 15 كم في الساعة

نهاية المنطقة السكنية

طريق اجباري للدراجات الهوائية والدراجات ذات المحرك وعربات المعاقين وممنوع على كل سائق اخر

نهاية الطريق الاجباري للدراجات

طريق اجباري للدراجات الهوائية والدراجات ذات المحرك وعربات المعاقين والدراجات النارية

نهاية الطريق الاجباري للدراجات والدراجات النارية

طريق راكبي الخيل

نهاية طريق راكبي الخيل

طريق للمشاة. مسموح لعربات المعاقين وممنوع على كل السائقين الاخرين

نهاية طريق المشاة

علامات الانتباة

علامات مرورية معناها (انتبة) شكلها مثلث احمر وبداخلة الرسم المطلوب الانتباة لة

انتبة هنالك منحنى الى جهة اليسار

انتبة هنالك منحنى الى جهة اليمين

انتبة هنالك منحنى اولا الى جهة اليسار ثم الى جهة اليمين

انتبة هنالك منحنى اولا الى جهة اليمين ثم الى جهة اليسار

انتبة منحدر خطير. ملاحظة: تقراء العلامة من اليسار الى اليمين

انتبة مطلع صعب. ملاحظة: تقراء العلامة من اليسار الى اليمين

انتبة دوار طرقي

انتبة تقاطع طرق خطير.

انتبة طريق السكك الحديدية بدون حواجز

انتبة طريق السكك الحديدية مع وجود الحواجز

انتبة جسر متحرك

انتبة ملتقى سكك الترام

انتبة طريق السكك الحديدية ذات اكثر من سكة

انتبة طريق السكك الحديدية ذات سكة واحدة

انتبة طريق فية اشغال

انتبة الطريق سوف تصبح ضيقة

انتبة الطريق سوف تصبح ضيقة من جهة اليسار

انتبة الطريق سوف تصبح ضيقة من جهة اليمين

انتبة خطر الانزلاق

انتبة للاولاد او الاطفال. ملاحظة: قلل السرعة وانتبة جيدا.

انتبة مكان خاص لعبور المشاة

انتبة للمشاة

انتبة للدراجات الهوائية بجميع انواعها التي قد تعبر الطريق

انتبة الطريق فية احجار صغيرة على الطريق

انتبة خطر الوقوع في النهر

انتبة حيوانات مفترسة كبيرة

انتبة للماشية

انتبة الطريق ذو تجاهين

انتبة طائرات منخفضة

انتبة هبوب الرياح. ملاحظة: خفف السرعة وامسك مقود السيارة جيدا

انتبة امامك اضوية للمرور

انتبة لوجود الازدحام

انتبة حاث سير

انتبة لانجماد الطريق

انتبة طريق فية حفر

انتبة مطب صناعي

علامات اتجاهات الطريق

لوحة اتجاة بجانب الطريق السريع

لوحة اتجاة منخفضة بجانب الطريق السريع

لوحة اتجاة بجانب الطريق السريع تشير للخروج الى محطة الوقود والمطعم ووقوف السيارات

لوحة اتجاة على الطريق السريع تشير الى اتجاة مستقيم

لوحة اتجاة عالية بجانب الطريق السريع تشير الى اتجاة للخروج

لوحة اتجاة بجانب طريق غير سريع

لوحة اتجاة بجانب طريق غير سريع

طريق مقطوع. لوحة اتجاة بجانب طريق غير سريع

لوحة اتجاة للدراجات الهوائية والنارية

لوحة اتجاهات للدراجات الهوائية والنارية

لوحة اتجاهات داخل المدينة

لوحة اتجاهات مختلفة داخل طريق غير سريع

طريق مسموح بة لنقل نوع من المواد الخطيرة

لوحة تشير الى تفرع الطريق السريع

الارشادات

ارتفاع الممر. خاص للشاحنات والمركبات العالية

مكان لعبور المشاة

مكان لوقوف الحافلات ولترامات

نفق. لوحة توضع عند مدخل النفق يكتب عليها طول النفق واسمة

لوحة اتجاهات الطريق

نهاية الخانة اليسار من الطريق

لوحة تدل على ان الخانة اليمين سوف تذهب الى اليمين

جميع خانات الطريق متجهة الى الامام

طريق غير مستمر (نهاية الطريق مغلقة)

لوحة تدل على ان الشارع اليمين غير مستمر

ممنوع دخول الشاحنات للطريق الايمن

ممنوع قيادة السيارات التي عرضها اكثر من مترين على الخانة اليسرى

لوحة مرور تنطبق فقط على جزء من الطريق المشار الية

مكان الوقوف الاضطراري مجهز بهاتف الطوارئ وجهاز اطفاء الحريق

مكان التوقف الاضطراري

هاتف الطوارئ

المخرج الاقرب في الاتجاة والمسافة المشار اليها على اللوحة

المخرج الاقرب في الاتجاة والمسافة المشار اليها على اللوحة

هاتف الطوارئ وجهاز اطفاء الحريق

جهاز اطفاء الحريق

اللوحات الالكترونية

السرعة القصوى

انتبة امامك ازدحام

جانب من الطريق لا يسمح باستعمالة

طريق يسمح باستخدامة

طريق خاص بالحافلات

لوحة تنبية تعني اترك الخانة التي انت بها واذهب باتجاة السهم

نهاية كل الممنوعات التي سبقت الاشارة اليها عن طريق اللوحات الالكترونية

تعليمات

يجب عليك التوقف. السائقين القادمين من اليمين واليسار والخلف يسمح لهم بمتابعة السير.

يجب عليك التوقف اذا كنت قادما من جهة الامام بالنسبة للموظف. السائقين القادمين من اليمين واليسار والخلف يسمح لهم بمتابعة السير.

يجب عليك التوقف اذا كنت قادما من جهة الخلف بالنسبة للموظف. السائقين القادمين من اليمين والسيار والامام يسمح لهم بمتابعة السير.

يجب عليك التوقف اذا كنت قادما من خلف او امام الموظف. السائقين القادمين من اليمين واليسار يسمح لهم بمتابعة السير.

اذا رئيت الموظف يقف بهذة الوضعية استمر في السير. السائقين القادمين من جهة اليمين بالنسبة للموظف يجب عليهم الوقوف.

السائقين لقادمين من يمين ويسار الموظف يجب عليهم الوقوف. اذا كنت قادما من امام او خلف الموظف استمر في القيادة.

هذة الحركة معناها خفف السرعة. يجب عليك تخفيف السرعة حسب الموقف.

هذة العلامة معناها يجب عليك التوقف. وتستعمل غالبا لعبور التلاميذ الصغار في المناطق التي تتواجد فيها المدارس.

علامات توضع تحت العلامات الرئيسية

لديك حق الاسبقية

لديك حق الاسبقية

لديك حق الاسبقية

ملاحظة مهمة: الخط الاسود العريض يمثل الشارع الرئيسي الذي تسير بة والخطوط السوداء الصغيرة تمثل الشوارع الجانبية. الاستمرار في القيادة الى الامام هو عبر الانعطاف الى اليسار

هذة اللوحة التحتية تشير الى ان العلامات الموضوعة فوقها تنطبق فقط على وسائل النقل التي ترى صورتها هنا

هذة اللوحة التحتية تشير الى ان العلامات الموضوعة فوقها تنطبق فقط على وسائل النقل التي ترى صورتها هنا

هذة اللوحة التحتية تشير الى ان العلامات الموضوعة فوقها تنطبق فقط على وسائل النقل التي ترى صورتها هنا

هذة اللوحة التحتية تشير الى ان العلامات الموضوعة فوقها تنطبق فقط على وسائل النقل التي ترى صورتها هنا

هذة اللوحة التحتية تشير الى ان العلامات الموضوعة فوقها تنطبق فقط على وسائل النقل التي ترى صورتها هنا



هذة اللوحة التحتية تشير الى ان العلامات الموضوعة فوقها تنطبق فقط على وسائل النقل التي ترى صورتها هنا

هذة اللوحة التحتية تشير الى ان العلامات الموضوعة فوقها صالحة فقط باتجاة السهم



هذة اللوحة التحتية تشير الى ان العلاما الموضوعة فوقها صالحة فقط باتجاة الس

علامات تنبية وارشاد اخرى

تضييق او نهاية خانة الطوارئ

جميع اللوحات التي باللون الاصفر هية لوحات مؤقتة توضع عندما تكون هنالك اعمال شغل على الطريق

عندما يكون الطريق مغلق بسبب الشغل يوضع هذا السهم كدليل على طريق اخرى بديل يكون بداخلة اما حرف او رقم

نهاية الطريق البديلة

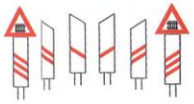

علامات توضع قبل سكة الحديد بين كل علامة واخرى 80 متر تدل على اقترابك من خط السكك الحديد

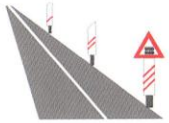

علامات توضع قبل سكة الحديد

العلامة الاولى ذات الثلاث خطوط الحمراء توضع على بعد 240 متر والثانية ذات الخطين الاحمرين توضع على بعد 160 متر والعلامة ذات الخط الامر الواحد على بعد 80 متر

تمارين العلامات المرورية

1 انت ترغب في الانعطاف الى جهة اليمين.
اي من هذة العلامات التالية لا يقابلك فيها سائقين ؟

1

2

- 1
- 2

2 عن طريق الخطئ دخلت الى شارع ممنوع الدخول فية. هل مسموح لك الدوران والرجوع في نفس الشارع ؟

- نعم
- لا

3 اي علامة مرورية تدل على انك داخل المدينة ؟

1

2

- 1
- 2
- 2 + 1

4 اي نوع من المركبات لا يسمح لك بتجاوزة هنا ؟

- جميع المركبات
- جميع المركبات ماعدا المركبات الزراعية

5 عند اي من هذة العلامات يجب ان تعطي حق الاسبقية للاخرين ؟

1

2

- 1
- 2

6 اي من العلامات التالية لايسمح لك في الوقوف ؟

1

2

- 1
- 2

7 بعد كم متر توجد سكة مرور القطار ؟

- 80 متر
- 160 متر
- 240 متر

8 اي من هذة العلامات تعني ان الشارع باتجاة واحد ؟

1

2

- 1
- 2

9 ماذا تعني هذة العلامة ؟

- السرعة التي ينصح بها 80 كم في الساعة
- السرعة القصوى هنا هي 80 كم في الساعة

10 توجد هذة العلامة في بداية الشارع.
ماذا يجب ان تفعل ؟

- تقود السيارة بسرعة 15 كم واعطاء الاولوية للسائقين من جهة اليمين واليسار
- تقود السيارة بسرعة 15 كم والانتباة الى الاطفال

11 ماهي السرعة القصوى المسموح بها عند رؤيتك لهذة العلامة ؟

- 60 كم
- 80 كم
- 100 كم

12 ماذا يعني السهم على جهة اليمين على هذة العلامة ؟



- السهم يعني ان الخانة اليمين مغلقة ولكن يسمح لك القيادة عليها اذا كان هنالك زحمة على الطريق
- السهم يعني ان الخانة اليمين مغلقة

---

13 اي من هذة العلامات هية نهاية اعطائك الاسبقة ؟

1

2

- 1
- 2

---

14 هل يحق لك الوقوف هنا لانزال احد الراكبين ؟

- نعم
- لا

---

15 انت تقود سيارة وتسحب خلفك عربة. وترغب السياقة بسرعة 120 كم في الساعة هل هذا مسموح ؟

- نعم
- لا

16 هذة العلامة توجد على جهة اليمين من الشارع. على اي جهة من الشارع نافذة المفعول ؟

- فقط على جهة اليمين
- على جهة اليمين واليسار

---

17 هنالك ثلج على هذة العلامتين لذلك لا يمكنك من معرفة محتواها ولكن يمكنك التعرف على شكلها.اي من هذة العلامتين يجب اعطاء الاولوية للسائقين الاخرين ؟

1

2

- 1
- 2

---

18 في تقاطع الطرق تنتظر الضوء الاخضر لكي تنعطف الى جهة اليسار. عند اي من الاشارات الضوئية يجب ان تنتبة اكثر وتعطي الاسبقية لمستعملي الطريق ؟

1

2

- 1
- 2

---

19 اي عربة تحمل هذة العلامة ؟

- حافلة نقل الركاب
- شاحنات نقل البضائع
- عربات البناء

20 هل مسموح لك الدخول في هذا الشارع ؟

- نعم
- لا

21 تقود سيارتك الى الخلف هنا.
هل هذا مسموح ؟

- نعم
- لا

22 هذة العلامة تنصح بسرعة معينة. هل هذة السرعة هي السرعة القصوى ام السرعة الدنيا ؟

- السرعة القصوى
- السرعة الدنيا

23 ماهي السرعة القصوى المسموح بها هنا ؟

- 80 كم في الساعة
- 50 كم في الساعة

2 انت ذاهب الى اليمين. هل من المتوقع بعد
نحنى ان تقابلك سيارات ؟

- نعم
- لا

2 تريد الذهاب الى اليسار. هل يجب
ن تتوقف ؟

- نعم
- لا

2 تريد متابعة الطريق الى الامام.
ل هذا مسموح ؟

- نعم
- لا

27 ماهي السرعة القصوى المسموح
ها هنا ؟

28 تريد الرجوع هنا الى الخلف.
هل هذا مسموح ؟

- نعم
- لا

29 تريد الذهاب الى اليسار.
هل هذا مسموح ؟

- نعم
- لا

30 ملتقى الطرق لا يوجد بة سائقين وترغب في الذهاب الى اليسار. ماذا يجب ان تفعل ؟

- الاستمرار في السياقة
- التوقف تماما ثم الاستمرار في السياقة

31 عن طريق الخطئ دخلت في هذا الطريق.
هل مسموح لك الالتفاف والرجوع هنا ؟

- نعم
- لا

اجوبة وشرح تمارين العلامات المرورية

1 - 1 العلامة رقم 1 تعني ان الطريق باتجاة واحد لذلك لايتوقع ان ياتي سائقين من الجهة المعاكسة اما العلامة رقم 2 فتعني يجب عليك الانعطاف الى جهة اليمين وهذا لا يعني ان الشارع باتجاة واحد اي من الممكن ان ياتي سائقين من الجهة المقابلة.

2 نعم نعم يسمح لك في الرجوع بل يجب عليك الرجوع وعدم الاستمرار في الخطئ.

3 - 2 العلامة رقم 2 تعني انك داخل المدينة ويكتب عليها اسم المدينة ومن المعروف ان السرعة داخل المدينة هية 50 كم في الساعة. اما العلامة الثانية فمعناها ان السرعة القصوى هية 50 كم في الساعة وهذا لايعني انك داخل المدينة اذ يمكن ان توضع هذة العلامة خارج المدينة ايضا.

4 جميع المركبات لا يسمح لجميع المركبات تجاوز بعضها البعض هنا. المركبات الزراعية (التريكتور) تعتبر ايضا من المركبات الغير مسموح تجاوزها هنا. **ملاحظة :** المركبات هية جميع المركبات الآلية بأستثناء الدراجات الهوائية والدراجات ذات المحرك (البروم فيتس) ومركبات المعاقين.

5 - 2 العلامة رقم 2 معناها يجب عليك اعطاء الاسبقية لجميع السائقين وليس للمشاة واسمها بالعربية اسنان القرش اما العلامة رقم 1 فمعناها انتبة لديك حق الاسبقية من اليمين واليسار.

6 - 1 العلامة رقم 1 معناها غير مسموح لك في الوقوف بتاتا حتى لو كانت لفترة قصيرة جدا كانزال شخص او ركوب شخص الى السيارة او انزال البضائع او شحنها. اما العلامة رقم 2 فمعناها غير مسموح التوقف (الباركن). لكن يسمح عند هذة العلامة في الوقوف لصعود او نزول الاشخاص من السيارة او لشحن البضائع او للسؤال عن الطريق مثلا.

7 - 240 متر كل خط احمر يساوي 80 متر وهنا لدينا ثلاثة خطوط حمراء اذا 3 × 80 = 240.

8 - 2 العلامة رقم 2 تعني ان الشارع باتجاة واحد ويجب عليك اتباع هذا الاتجاة ولا يتوقع ان يكون هنالك سائقين يسيرون عكس الاتجاة. اما العلامة رقم 1 فمعناها غير مسموح لك بالانعطاف الى الشارع الذي على اليمين او الشارع الذي على جهة اليسار بل يجب عليك متابعة الطريق الى الامام. ملاحظة مهمة جدا جميع العلامات صالحة لغاية تقاطع الطرق القادم .كل شارع جديد له علاماتة الخاصة بة. ماعدا اذا كان مكتوب على العلامة منطقة (ZONE) فهذة العلامات تشمل الحي باكملة.

9 السرعة القصوى هنا هي 80 كم في الساعة هذة العلامة تعني السرعة القصوى الاجبارية التي يجب اتباعها.

10 تقود السيارة بسرعة 15 كم والانتباة الى الاطفال. هذة العلامة تدل على انك تقود في حي سكني يجب الانتباةجيدا الى الاطفال. الاطفال غالبا ما يلعبون في الشارع وبين السيارات حيث يصعب على السائقين رؤيتهم. اما من ناحية اعطار الاولوية فالاولوية هنا لجهة اليمين فقط اذا لم تتوفر علامات الاسبقية.

11- 100 كم في الساعة هذة العلامة معناها انك تقود على طريق سيارات حيث السرعة القصوى هنا هية 100 كم في الساعة اذا لم تكن هنالك علامة اخرى تحدد السرعة.

12 السهم يعني ان الخانة اليمنى مغلقة. ولا يسمح لك باي حل من الاحوال القيادة على هذة الخانة. غالبا ما يسبق هذة العلامة علامة تحذيرية ذات سهم بالاتجاة الي يجب عليك التوجة الية.

13 -1 العلامة رقم 1 معناها نهاية الاسبقية بالنسبة لك.اذ يجب عليك بعد هذة العلامة اعطاء حق الاسبقية للسائقين الاخرين. اما العلامة رقم 2 فمعناها يجب عليك اعطاء الاسبقية لجميع السائقين.

14 نعم هذة العلامة معناها عدم التوقف (الباركن). اذا يحق لك الوقوف لانزال او صعود الاشخاص وكذالك لشحن البضائع وانزالها على سبيل المثال.

15 لا انت تقود سبارة وتسحب خلفك عربة او كرافان اذا السرعة القصوى المسموح بها هية 90 كم في الساعة على الطريق السريع و طريق السيارت. اما خارج المدينة فالسرعة القصوى هية 80 كم في الساعة.

16 فقط على جهة اليمين علامات الوقوف والتوقف صالحة فقط على الجهة التي توضع عليها ماعدا اذا كتب عليها المنطقة باكملها (ZONE) فهي صالحة للجهتين.

17 - 1 العلامة رقم 1 هي علامة اعطاء الاسبقية للسائقين وهي الوحيدة التي يكون رئس المثلث فيها الى الاسفل لتمييزها عن باقي العلامات وذلك لاهميتها.

18 - 2 الاشارة الضوئية رقم 2 لا يوجد فيها سهم اذا يجب اعطاء الاسبقية لجميع مستخدمي الطريق السائقين والمشاة عند الانعطاف الى جهة اليمين او الى جهة اليسار. اما الاشارة الضوئية رقم 1 تحمل السهم ومعناها لك الاسبقية على جميع مستخدمي الطريق عند الانعطاف الى الجهتين.

19 عربات البناء. العربات التي سرعتها محدودة والتي لاتتجاوز ال 25 كم في الساعة هية التي تحمل هذة العلامة مثل عربات الفلاحة والبناء.

20 نعم هذة العلامة تعني ان هذا الطريق ليس لة منفذ. اذا الدخول لهذا الشارع مسموح بة للجميع.

21 لا هذة العلامة تعني ان الطريق باتجاة واحد (السير للامام فقط) وغير مسموح لك الرجوع الى الخلف بتاتا.

22 السرعة القصوى هذة العلامة تعني ان السرعة القصوى التي ينصح بها في هذا المنحنى هية 70 كم في الساعة. هذة اللوحة غير اجبارية. وتوضع غالبا قبل المنعطفات (المنحنيات) وبعد المنحنى يمكنك الرجوع الى السرعة الاعتيادية للطريق.

23 80 كم في الساعة هذة العلامة تعني انك خرجت من الطريق السريع. كذلك لاتوجد علامة دخول المدينة (دائما في مدخل المدينة توضع علامة الدخول مكتوب عليها اسم المدينة). اذا انت ماتزال خارج المدينة والسرعة القصوى خارج المدينة هية 80 كم في الساعة (السرعة القصوى داخل المدينة هية 50 كم في الساعة).

24 نعم هذة العلامة الدائرية تعني انك مجبر على اتباع السهم الموجود فيها سواء لليمين او اليسار او للامام. ولا تعني ان الطريق الذي سوف تدخل الية هو باتجاة واحد. اذا من المتوقع ان تقابل سيارات في الاتجاة المعاكس لك.

25 نعم الموظف يعطي علامة التوقف للسائقين القادمين من جهة اليمين بالنسبة للموظف. وانت قادم من جهة اليمين اذا يجب عليك التوقف.

26 نعم هذة العلامة تعني تحويل مؤقت او اشغال على الطريق (غالبا عندما يكون هنالك طريق مسدود لسبب ما توضع هذة العلامات الارشادية لترشدك الى طريق اخر رديف يوصلك الى مبتغاك. كذلك يمكن ان يكون هذا السهم متبوع بحرف او رقم للدلالة). اذا انت او السائقين الاخرين غير مجبرين على اتباع هذا السهم.

27 100 كم في الساعة هذة العلامة تعني انت تسير على طريق السيارات والسرعة القصوى هنا هية 100 كم في الساعة. كما ان السرعة الدنيا هنا هية 50 كيلو متر في الساعة.

28 لا لا يسمح لك بالرجوع الى الخلف على طريق السيارات او على الطريق السريع.

29 نعم الموظف يعطي علامة التوقف للسائقين القادمين من جهة الامام بالنسبة للموظف. وانت قادم من خلفة اذا يحق لك متابعة السير.

30 التوقف تماما ثم الاستمرار في السياقة هذة العلامة مكتوب عليها قف. اذا يجب عليك ان تتوقف تماما حتى وان كان الطريق فارغا. هذة العلامة توضع في ملتقى الطرق الخطرة للمزيد من الامان.

31 نعم هذا الطريق ممنوع الدخول فية للمركبات التي تسير على اكثر من اطارين. اذا دخلت الى هذا الطريق عن طريق الخطئ من الافضل ان تلف وترجع في نفس الطريق وعد الاستمرار في الخطئ.

الفصل الثالث

قواعد الطريق

1 ماهي السرعة القصوى للطريق رقم 2

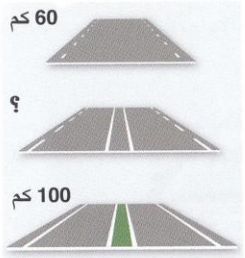

1

2

3

- 50 كم في الساعة
- 80 كم في الساعة

2 هل مسموح لك الذهاب الى جهة اليسار بوجود الخط المتصل على الارض ؟

- نعم
- لا

3 هل مسموح لك الذهاب الى جهة اليسار بوجود الخط المتقطع على الارض ؟

- نعم
- لا

4 هل مسموح لك الذهاب الى جهة اليسار بوجود الخط المتقطع والخط المتصل ؟

- نعم
- لا

5 هل مسموح لك الذهاب الى جهة اليمين بوجود الخط المتصل والخط لمتقطع ؟

- نعم
- لا

6 ترغب في الذهاب الى جهة اليسار. هل هذا مسموح ؟

- نعم
- لا

7 على اي طريق مسموح القيادة بسرعة 80 كم في الساعة ؟



1

2

- 1
- 2

8 ماذا يعني الضوء الاصفر المتقطع على علامات المرور الضوئية ؟

- ☐ علامة المرور الضوئية خارج الخدمة
- ☐ التوقف عند العلامة الضوئية

9 ترغب في الذهاب الى جهة اليمين. هل مسموح لك البقاء على هذة الخانة ؟

- ☐ نعم
- ☐ لا

10 اي من الخطوط يجب اتباعها ؟

- ☐ الصفراء
- ☐ البيضاء

11 ترغب في الرجوع في نفس الشارع. هل هذا مسموح ؟

- ☐ نعم
- ☐ لا

12 ترغب في الذهاب الى اليسار. هل هذا مسموح ؟

- ☐ نعم
- ☐ لا

13 ترغب في الانعطاف في اول شارع جانبي على جهة اليسار. هل هذا مسموح ؟

- ☐ نعم
- ☐ لا

14 انت ترغب في القيادة هنا. هل هذا مسموح ؟

- ☐ نعم
- ☐ لا

15 هل يجب اعطاء الاسبقية للمشاة هنا ؟

- ☐ نعم
- ☐ لا

اجوبة وشرح الفصل الثالث

1 - 80 كم في الساعة الطريق الذي يحتوي على خطين متصلين في منتصفة تكون السرعة القصوى فية 80 كم في الساعة.

2 لا لا يسمح لك بتجاوز الخط المتصل سواء على جهة اليمين او جهة اليسار.

3 نعم يسمح لك بتجاوز الخط المتقطع دائما على جهة اليسار واليمين.

4 نعم اذا كان الخط المتقطع اقرب لك يحق لك تجاوز الخطين الى جهة اليسار. اما السائق على جهة اليسار فلا يحق لة الذهاب الى جهة اليمين لوجود الخط لمتصل اقرب الية من الخط المتقطع.

5 لا اذا كان الخط المتصل اقرب لك من الخط المتقطع فلا يجوز لك تجاوزة.

6 لا لا يحق لك الذهاب جهة اليسار وتغيير الخانة التي انت فيها. لا يحق لك قطع المربعات البيضاء التي على الارض والاتجاة الى خانة اخرى. انت مجبر على اتباع الاتجاة الذي يشير الية السهم على الارض.

7 - 2 السرعة القصوى على الطريق رقم 2 هية 100 كم في الساعة وذلك لوجود اللون الاخضر في منتصف الطريق. اذا يسمح لك بالسياقة بسرعة 80 كم في الساعة. اما السرعة القصوى للطريق رقم 1 فهي 60 كم في الساعة وذلك لوجود خطين متقطعين على جانبي الطريق تبعد عن حافة الطريق بمسافة نصف متر تقريبا. وهما ليست طريقا للدراجات الهوائية. الدراجات الهوائية والدراجات ذات المحرك غير مسموح لهم السياقة هنا.

8 علامة المرور الضوئية خارج الخدمة الضوء الاصفر المتقطع معناة ان الاشارة المرورية الضوئية خارج الخدمة ومتوقفة عن العمل وهنا يجب الانتباة الى العلامات المرورية التي على الارض حيث تحل محل العلامات الضوئية ان وجدت.

9 لا هنالك خانتين متجهة الى جهة اليمين. في حال لم يكن هناك زحمة سير على الطريق يجب عليك السياقة على الخانة اليمين. اما اذا كان هنالك زحمة سير شديدة على الطريق يمكن في هذة الحالة السياقة على الخانة اليسار. (**قاعدة:** السياقة دائما تكون على الخانة اليمن اذا كان هناك اكثر من خانة بنفس الاتجاة).

10 الصفراء اذا كانت هنالك خطوط صفراء او علامات مرورية صفراء اللون على الطريق يجب اتباعها فهي بديل مؤقت للخطوط ولعلامات الاعتيادي. العلامات الصفراء معناها وجود اعمال شغل على الطريق.

11 لا لا يحق لك الالتفاف والرجوع على الطريق وذلك لوجود خط متصل في منتصف الطريق لا يسمح لك بتجاوز الخط المتصل.

12 نعم يسمح لك الذهاب الى جهة اليسار. العلامة المرورية معناها ممنوع الاستدارة والرجوع في نفس الشارع.

13 لا السهم الذي على الارض يدل على انة غير مسموح لك الانعطاف في اول طريق على اليسار وانما الطريق الثاني.

14 لا لا يحق لك السياقة على هذة الخانة فهي مخصصة لحافلات نقل الركاب.

15 لا اذا كانت منطقة عبور المشاة تحتوي على اضوية مرورية فيجب اتباع الاضوية المرورية. اما اذا لم تكن هنالك اضوية مرورية فالاسبقية لعبور المشاة دائما.

الفصل الرابع

القيادة على الطريق

1 تريد الذهاب الى جهة اليمين. هل مسموح لك القيادة هنا ؟

- نعم
- لا

2 انت تقود سيارتك هنا. هل هذا مسموح ؟

- نعم
- لا

3 تريد الذهاب الى جهة اليسار. هل تقف سيارتك بالوضعية الصحيحة ؟

- نعم
- لا

انت تقود سيارتك هنا. هل هذا مسموح ؟

- نعم
- لا

على اي جهة من الطريق توجد
ة العلامة الفسفورية ؟

- على جهة اليمين
- على جهة اليسار

اي جزء من الطريق يسمى الخانة ؟



- A
- B
- C

اي جزء من الطريق يسمى طريق السير ؟



- A
- B
- C

1 تريد الذهاب الى جهة اليسار. هل تقود
يارتك بالوضعية الصحيحة على الطريق ؟

نعم

لا

1 تريد الذهاب الى جهة اليسار. هل تقود
يارتك بالوضعية الصحيحة على الطريق ؟

نعم

لا

1 تريد الذهاب هنا الى جهة اليسار. هل تقود
يارتك بالوضعية الصحيحة على الطريق ؟

نعم

لا

1 تريد هنا الذهاب الى جهة الامام.
هذا مسموح ؟

نعم

لا

8 انت توقفت لكي تعطي الاسبقية لحافلة نقل الركاب. هل تقف في المكان الصحيح ؟

نعم

لا

9 تريد الذهاب الى جهة اليسار.هل تقف في المكان الصحيح لكي تعطي الاسبقية للحافلة ؟

نعم

لا

10 تريد الذهاب الى جهة اليمين. ووضعت سيارتك على الطريق بهذا الشكل. هل هذا اجباري ؟

نعم

لا

11 تريد الذهاب الى جهة اليسار. هل تقف سيارتك بالوضعية الصحيحة ؟

نعم

لا

16 تريد الذهاب الى جهة اليمين. هل تقود سيارتك بالوضعية الصحيحة على الطريق ؟

- نعم
- لا

17 تريد الذهاب الى جهة اليمين. هل تقود سيارتك بالوضعية الصحيحة على الطريق ؟

- نعم
- لا

18 تريد الذهاب الى جهة اليسار. هل تقود سيارتك بالوضعية الصحيحة على الطريق ؟

- نعم
- لا

19 تريد الذهاب الى جهة اليمين. هل تقود سيارتك بالوضعية الصحيحة على الطريق ؟

- نعم
- لا

اجوبة وشرح الفصل الرابع

1 نعم مسموح لك السياقة على مكان الدراجات اذا كان الخط الفاصل عن الطريق متقطع. ولا يسمح لك اذا كان الخط الفاصل عن الطريق متصل.

2 لا لا يسمح لك السياقة على مكان الدراجات اذا كان الخط الفاصل عن الطريق متصل.

3 لا يجب ان تكون اطارات السيارة الامامية متجة الى الامام وليس الى جهة اليسار. لذلك يجب ان تضع اطارات السيارة الامامية بشكل مستقيم ولا تديرها الى جهة اليسار عندما تقف. السبب هو انة اذا كانت اطارات سيارتك متجه الى جهة اليسار واتت سيارة خلفك واصطدمت بك فسوف تتحرك سيارتك الى جهة اليسار مما يشكل خطر على السيارات التي تاتي من الجهة المقابلة.

4 لا انت تقود سيارتك في الاتجاة المعاكس لحركة السير. يجب الانتباة الى علامة السهم الموجودة في بداية الطريق والتي تجبرك على السير في الاتجاة الذي يشير الية السهم.

5 على جهة اليمين العلامة الفسفورية باللون الاحمر توجد على جهة اليمين من الطريق والعلامة الفسفورية البيضاء توجد على جهة اليسار من الطريق. **ملاحظة:** تذكر هنا السيارات التي تسير امامك اضويتها حمراء من الخلف وهي تسير دائما على جهة اليمين من الشارع والسيارات التي تسير على جهة اليسار يكون وجهها مقابل لك. اذا اضويتها بيضاء وهي تسير دائما على جهة اليسار.

6 - A A تسمى خانة وباللغة الهولندية تسمى (راي ستروك). B يسمى طريق السير وباللغة الهولندية يسمى (راي بان) وهو مجموعة من الخانات يختلف عددها من طريق الى اخر. C يسمى الطريق كاملا بما في ذالك خانة الطوارئ ويسمى باللغة الهولندية (فخ) ثلاث نقاط فوق حرف الفاء.

7 - B الطريق B يسمى طريق السير وهو مجموعة من الخانات مجتمعة يختلف عددها من طريق الى اخر. وباللغة الهولندية يسمى (راي بان).

8 نعم هل يجب عليك اعطاء الاسبقية للسائقين من جهة اليمين ؟ اذا كان الجواب نعم اذا يجب عليك الوقوف بمسافة صحيحة لكي يستطيع السائقين الاخرين الدوران بشكل صحيح. وخصوصا السيارات الكبيرة تحتاج الى مساحة اكبر للدوران .

9 لا انت تقف بمكان يصعب على الحافلة الدوران الى جهة اليسار يجب الرجوع الى الخلف بمسافة كافية لكي تستطيع الحافلة من الدوران الى جهة اليسار دون ان تصطدم بسيارتك.

10 نعم لا يحق لك السير على طريق الدراجات بسبب وجود الخط المتصل.

11 نعم اذا كنت ترغب في الاتجاة الى جهة اليسار وكان عليك الانتظار لكي تعطي حق الاسبقية للسائقين الاخرين يجب عليك ان تقف بشكل مستقيم. وكذلك الاطارات الامامية يجب ان تكون بشكل مستقيم ايضا اي متجه الى الامام.

12 نعم انت تقود سيارتك في طريق ذات اتجاة واحد. لكن انتبة هنالك لعلامة مسموح للدراجات الدخول الى هذا الطريق من هذا الاتجاة. لذلك يفضل تحديد موقعك او السياقة في منتصف الطريق قبل الذهاب الى اليسار. اذا لم يكن هنالك علامة السماح للدراجات بدخول الطريق من هذا الاتجاة اذهب الى اقصى يسار الطريق قبل الانعطاف.

13 نعم هذا الشارع عريض يسع لسيارتين جنب بعض. وانت تريد الذهاب الى جهة اليسار اذا يجب عليك الاتجاة قدر المستطاع الى جهة اليسار من الطريق لفسح المجال للسائقين الذين يرغبون في الاتجاة الى جهة اليمين.

14 نعم هذا الشارع ذات اتجاهين للسياقة. وانت تقود سيارتك في الموضع الصحيح اي الجهة اليمنى من الطريق. وبهذا لا تشكل خطر او مضايقة للسائقين الاخرين القادمين في الاتجاة المعاكس.

15 لا هنالك خط متصل يفصل الخانتين. اذا لايحق لك اجتياز الخط المتصل. لذلك يجب عليك المتابعة والانعطاف الى جهة اليسار.

16 لا لا يسمح لك بتجاوز الخط المتصل لطريق الدراجات. اذا لايسمح لك في السياقة على طريق الدراجات.

17 نعم ترغب في الانعطاف الى جهة اليمين. اذا يجب عليك ان تتجهة قدر الامكان قرب الرصيف لمنع السائقين القادمين من الخلف ان لتجاوز سيارتك من جهة اليمين. وفي ذاك امان اكثر للسائقين.

18 لا هذا الطريق ذات اتجاة واحد وهو عريض اذا يجب عليك قدر الامكان السياقة على جهة اليسار من الطريق اذا كنت ترغب في الانعطاف الى جهة اليسار وذلك لفسح الطريق للذاهبين الى جهة اليمين.

19 نعم يسمح لك في السياقة على طريق الدراجات اذا كان منفصل عن الطريق بخطوط متقطعة. لكن انتبة لا يحق لك مضايقة الدراجات بانواعها او عربات المعاقين.

100

• انظم الى احـ
• جميع اسئلة
• الدورة التعلي
• امكانية الامتـ
• امكانية الامتـ
• حجز الامتحا
• جميع الامكان
• اتصل ولا تتر

اتصل بنا ولا تتر
نحن في خدمتـ

تجاوز السائقين

1 تريد اجتياز السيارة التي امامك من جهة اليسار. هل هذا مسمح ؟

- نعم
- لا

2 تريد اجتياز السيارة من جهة اليمين .
هل هذا مسموح ؟

- نعم
- لا

3 الشاحنة تسير ببطئ. هل مسموح لك ان تتجاوزها من جهة اليمين ؟

- نعم
- لا

4 انت تتجاوز الشاحنة هنا.
هل هذا مسموح ؟

- نعم
- لا

5 انت تريد ان تتجاوز السيارة التي امامك هنا. هل هذا مسموح ؟

- نعم
- لا

6 انت تريد ان تتجاوز السيارة التي امامك هنا. هل هذا مسموح ؟

- نعم
- لا

7 انت تريد ان تتجاوز السيارة في تقاطع الطريق. هل هذا مسموح ؟

- نعم
- لا

8 انت تتجاوز السيارة هنا.
هل هذا مسموح ؟

- نعم
- لا

9 انت تريد ان تتجاوز السيارة هنا.
هل هذا مسموح ؟

- نعم
- لا

10 انت تريد ان تتجاوز الحافلة هنا. هل يجب عليك اعطاء اشارة الاتجاة الضوئية ؟

- نعم
- لا

11 انت تريد ان تتجاوز الدراجة ذات المحرك هنا. هل هذا مسموح ؟

- نعم
- لا

12 انت تتجاوز الدراجة هكذا. من المسؤول اذا سقط سائق الدراجة على الارض ؟

- انت
- سائق الدراجة

13 انت تريد ان تتجاوز الدراجة هكذا. هل هذا مسموح ؟

- نعم
- لا

14 انت تريد ان تتجاوز السيارة هنا من جهة اليمين. هل هذا مسموح ؟

- نعم
- لا

15 انت تريد انت تتجاوز السيارة عند تقاطع سكة الحديد. هل هذا مسموح ؟

- نعم لكنة غير امن
- لا غير مسموح

16 انت تريد ان تتجاوز الدراجة النارية هنا. هل هذا مسموح ؟

- نعم
- لا

17 هذة السيارة تسير ببطئ. انت تريد انت تتجاوزها هنا. هل هذا مسموح ؟

- نعم
- لا

18 انت تريد ان تتجاوز الترام من جهة اليمين. هل هذا مسموح ؟

- نعم
- لا

19 تريد انت تتجاوز السيارة من جهة اليسار هل يجب عليك استعمال اشارة الاتجاة الضوئية ؟

- نعم
- لا

اجوبة وشرح الفصل الخامس

1 نعم يحق لك تجاوز السيارة هنا من جهة اليسار. دائما تجاوز السائقين يكون من جهة اليسار الا في حالات معينة مسموح التجاوز من جهة اليمين.

2 لا لا يحق لك تجاوز السائقين من جهة اليمين الا في الحالات التالية :1 التجاوز في الدوار 2 التجاوز في الازدحام الشديد 3 تجاوز الترام 4 اذا كان هنالك المربعات البيضاء على جهة اليسار من الطريق 5 اذا كانت السائق الذي امامك يريد الذهاب الى جهة اليسار.

3 لا لا يحق لك تجاوز اي سائق من جهة اليمين الا في الحالات السابقة الذكر.

4 نعم مسموح لك تجاوز السائقين من جهة اليمين اذا كان هنالك علامات بيضاء مربعة على جهة اليسار من سيارتك.

5 لا لا يسمح لك بتجاوز الخط المتصل الذي على الطريق.

6 لا لا يسمح لك بتجاوز الخط المتصل الذي على الطريق.

7 لا لا يسمح لك بتجاوز السائقين في تقاطعات الطرق التي لا توجد فيها رؤية جيدة. وذلك لربما قد تاتي سيارة فجاة لم ترها مما يسبب خطرا على السائقين.

8 لا اجتياز كل وسائل النقل قبل او عند منطقة عبور المشاة ممنوع.

9 نعم داخل الدوار يسمح لك بتجاوز السائقين من جهة اليسار ومن جهة اليمين.

10 نعم نعم يجب عليك استعمال الاشارة الضوئية عند تجاوز الاخرين.

11 لا التجاوز في المنحنيات خطر جدا لذلك فهو ممنوع. وذلك لربما قد يصادفك سائق من الجهة الاخرى لا تراة بسبب المنعطف مما يسبب خطرا على جميع السائقين.

12 انت تتجاوز ساقين الدراجات فقط اذا كان هنالك مسافة جيدة وكافية للتجاوز وخصوصا اذا كانوا اطفال. تقدر المسافة بمتر ونص.

13 لا يجب ان تضع مسافة اكثر بينك وبين الدراجات بجميع انواعها.

14 نعم مسموح لك بتجاوز هذة السيارة من جهة اليمين اذا كانت السيارة التي امامك ترغب في الانعطاف الى جهة اليسار. لكن انتبة لمستعملي الطريق الاخرين يجب ان تكون حريصا في متابعة الاخرين عند التجاوز.

15 نعم لكن هذا غير امن من الافضل عدم تجاوز السائقين في تقاطع سكك الحديد حتى اذا كنت تعتقد ان هذا سهل عليك.

16 لا لا يسمح لك هنا بتجاوز سائقين السيارات وكذالك الدراجات النارية لوجود علامة المنع.

17 لا لا يسمح لك بتجاوز الخط المتصل اذا كان هذا الخط بين خانتين.

18 نعم يحق لك تجاوز الترام من جهة اليمين.

19 نعم يجب عليك دائما استعمال الاشارات الضوئية عند التجاوز او الانعطاف الى جهة اليمين او اليسار.

الفصل السادس

الاضوية

1 ماذا يسمى هذا الضوء في السيارة ؟

- الضوء العادي
- ضوء المدينة

2 ماذا يسمى هذا الضوء في السيارة ؟

- الضوء العادي
- الضوء العالي

3 ماذا يسمى هذا الضوء في السيارة ؟

- الضوء العادي
- الضوء العالي

4 ماذا يسمى هذا الضوء في السيارة ؟

- ضوء الضباب الخلفي
- ضوء الضباب الامامي

5 ماذا يسمى هذا الضوء في السيارة ؟

- ضوء الضباب الخلفي
- ضوء الضباب الامامي

6 هل مسموح لك استعمال الضوء العالي هنا ؟

- نعم
- لا

7 هل مسموح لك استعمال الضوء العالي هنا ؟

- نعم
- لا

8 هل مسموح لك استعمال
الضوء العالي هنا ؟

- نعم
- لا

9 انت تقود سيارتك في شارع فية اشجار كثيرة
والضوء هنا قليل. اي ضوء سوف تستعمل؟

- الضوء العادي
- ضوء المدينة

10 المطر يهطل بشدة. هل مسموح لك
استعمال الضوء العالي ؟

- نعم
- لا

11 اي ضوء يجب ان تستعمل في
النهار اذا كان هنالك مطر شديد ؟

- الضوء العادي
- الضوء العالي

12 انت لا ترى بوضوح بسبب المطر.
هل مسموح لك استعمال الضوء العادي
مع ضوء الضباب الامامي ؟

- نعم
- لا

13 تستطيع الرؤية لمسافة 80 م للامام. هل
مسموح لك استعمال ضوء الضباب الخلفي ؟

- نعم
- لا

14 المطر يهطل بشدة. هل مسموح لك
استعمال ضوء الضباب الخلفي ؟

- نعم
- لا

15 ماذا يجب عليك ان تعمل
قبل ان تدخل النفق ؟

- انارة الضوء العادي
- لا شئ

16 انت تقف هنا بدون اشعال اضوية السيارة. هل هذا مسموح ؟

- نعم
- لا

17 انت تقف هنا بدون اشعال اضوية السيارة. هل هذا مسموح ؟

- نعم
- لا

18 الضوء الخلفي الايمن لسيارتك معطل. هل مسموح لك السياقة بهذا الشكل ؟

- نعم
- لا

19 انت تستعمل ضوء الضباب الخلفي هل هذا مسموح ؟

- نعم
- لا

اشارة الاتجاة الضوئية اليسار

اشارة الاتجاة الضوئية اليمين

علامة تدل على تفعيل الضوء العادي

علامة تدل على تفعيل ضوء الضباب الخلفي

علامة تدل على تفعيل ضوء الضباب الامامي

علامة تدل على وجود عطب في واحد او اكثر من اضوية السيارة

علامة تدل على تفعيل الضوء العالي

علامة تدل على تفعيل اضوية التحذير

علامة تدل على ان احدى الابواب او صندوق الاغراض الخلفي غير مغلق

علامة تدل على تفعيل الفرامل اليدوية.

علامة تدل على ان زيت المحرك غير كافي. يجب اغلاق المحرك مباشرتا وفحص زيت المحرك

علامة تدل على ان توجد مشكلة في بطارية السيارة. ربما يكون يكون هنالك عطل في شاحن البطارية.

علامة تدل على وجود نقص في مادة غسل زجاج السيارة الامامي والخلفي.

علامة تدل على وجود عطل في نظام الفرامل المانع للانزلاق (ABS)

علامة تدل على وجود عطل في نظام الفرامل (المكابح) للسيارة. في بعض المركبات تستعمل هذة العلامة ايضا للدلالة على تفعيل الفرامل اليدوية

علامة تدل على وجود عطل في نظام المحرك الالكتروني. تستطيع متابعة السير والتوجة الى الورشة الفنية للتصليح فيما بعد.

علامة تدل على وجود صيانة السيارة. على سبيل المثال تبديل زيت المحرك او الفلاتر الخ.

تعمل هذة العلامة عندما يكون هنالك انزلاق قد حصل للسيارة. يجب رفع القدم عن دواسة الوقود وعدم الضغط على الفرامل في هذة الحالة.

اجوبة وشرح الفصل السادس

1 ضوء المدينة ضوء ضعيف نسبيا يسمى باللغة الهولندية (ستاد ليخت). مسموح استعمالة مع الضوء العادي او الضوء العالي ويستخدم عادتا عند ركن السيارة لكي تكون واضحة للعيان من قبل مستعملي الطريق الاخرين.

2 الضوء العادي وباللغة الهولندية يسمى (ديم ليخت). وهو الضوء الذي يستعمل اجباريا في الليل وفي الانفاق. ويستعمل ايضا اثناء النهار عندما تكون الاحوال الجوية غير جيدة مثل المطر او تساقط الثلج او الضباب او الغيوم الكثيفة. **ملاحظة:** اشعال الضوء العادي في النهار ليس لكي ترى الطريق ولكن لتكون سيارتك اوضح لمستعملي الطريق الاخرين.

3 الضوء العالي وباللغة الهولندية يسمى (خروت ليخت). بواسطة الضوء العالي تستطيع ان تنير الطريق لمسافة اكبر في الليل اكثر من الضوء الاعتيادي. وهو اقوى الاضوية الموجودة في السيارة. مسموح استعمالة فقط في الليل وغير مسموح استعمالة وجها لوجة مع مستعملي الطريق سواء من المشاة او السائقين.

4 ضوء الضباب الخلفي وباللغة الهولندية يسمى (ميست اختر ليخت).يكون في الجهة الخلفية للسيارة ويستعمل فقط عندما تكون درجة الرؤيا اقل من 50 متر بسبب الضباب او الثلج. ولا يسمح باستعمالة في حالة المطر ابدا حتى اذا كانت الرؤية اقل من 50 متر.

5 ضوء الضباب الامامي وباللغة الهولندية يسمى (ميست ليخت فور). ويكون في مقدمة السيارة ويستعمل فقط عندما تكون الرؤية غير جيدة بسبب الضباب او الثلج او المطر.

6 لا لا يسمح لك باستعمال الضوء العالي ابدا وجها لوجة مع المشاة. لان ذلك يسبب لهم العمى المؤقت وهو خطر على مستعملي الطريق.

7 نعم يسمح لك استعمال الضوء العالي اذا لم يتواجد امامك اي مستعمل للطريق في الليل. ملاحظة: لا يسمح لك باي حال من الاحوال استعمال الضوء العالي في النهار.

8 لا لا يسمح لك استعمال الضوء العالي ابدا اذا كان اماك سائقين مها كان اتجاههم سواء في الليل او في النهار. ان ذلك يسبب الازعاج والخطر للسائق الذي امامك. لا يسمح باستعمال الضوء العالي في النهار ابدا

9 ضوء المدينة يسمح باستعمال ضوء المدينة خلال النهار. بهذا يستطيع مستعملي الطريق الاخرين من مشاهدتك بوضوح.

10 لا لا يسمح لك باستعمال الضوء العالي ابدا اذا كان هنالك سائقين اخرين على الطريق. كما انة يسمح فقط استعمال الضوء العالي في الليل وليس في النهار عندما يكون الضوء العادي غير كافي لرؤية الطريق.

11 الضوء العادي لا يسمح لك ابدا استعمال الضوء العالي في النهار حتى اذا كانت الاحوال الجوية غير جيدة مثل هطول المطر الشديد او الضباب او تساقط الثلوج.

12 نعم يسمح لك باستعمال ضوء الضباب الامامي مع الضوء العادي او ضوء المدينة عندما تكون الرؤية غير جيدة بسبب المطر والثلوج والضباب. لا يسمح لك باستعمال ضوء الضباب الامامي لوحدة.

13 لا يسمح لك باستعمال ضوء الضباب الخلفي فقط عندما يكون هنالك ضباب كثيف ولا تستطيع الرؤية لاكثر من 50 متر الى الامام.

14 لا لايسمح لك ابدا باستعمال ضوء الضباب الخلفي بسبب الامطار حتى وان كانت شديدة. بسبب ان الضوء الاحمر القوي يسبب الازعاج للسائقين الذين خلفك.

15 انارة الضوء العادي ان استعمال الضوء العادي في الانفاق اجباري. وبهذا تكون واضحا للسائقين الاخرين من خلفك ومن امامك. يجب فتح الضوء قبل الدخول الى النفق.

16 لا يجب عليك استعمال ضوء المدينة والضوء الخلفي للسيارة اذا اوقفت (باركن) السيارة خارج المدينة في الليل.

17 نعم استعمال الضوء عند الوقوف داخل المدينة ليس اجباري. لكن يكون اجباريا خارج المدينة.

18 لا يجب ان تكون جميع اضوية السيارة سليمة عند السياقة.

19 لا ضوء الضباب الخلفي يسمح باستعمالة فقط عند الضباب وعند تساقط الثلوج وعدم الرؤية لمسافة اكثر من 50 حتى متر. لايسمح باستعمال ضوء الضباب الخلفي في حالة المطر حتى وان كان شديدا.

الفصل السابع

الوقوف والتوقف

1 هل مسموح لك التوقف هنا ؟

- نعم
- لا

2 هل مسموح لك الوقوف هنا ؟

- نعم
- لا

3 ماذا يعني هذا الخط الاصفر المتصل ؟

- ممنوع التوقف
- ممنوع الوقوف والتوقف

4 ماذا يعني الخط الاصفر المتقطع ؟

- مسموح الوقوف
- ممنوع الوقوف

5 على اي اتجاة من الشارع
نافذة المفعول هذة العلامة ؟

- على جهة اليمين
- على جهة اليسار

6 على اي اتجاة من الشارع
نافذة المفعول هذة العلامة ؟

- على جهة اليمين
- على جهة اليسار واليمين

7 اي من العلامتين لا يسمح لك في التوقف ؟

1 2

- 1
- 2
- 2 + 1

8 توقفت هنا لانزال اغراض من السيارة.
هل هذا مسموح ؟

- نعم
- لا

9 هل مسموح انزال هذا الشخص هنا ؟

- نعم
- لا

10 انت تسال شخص ليرشدك الى الطريق.
هل مسموح لك الوقوف هنا ؟

- نعم
- لا

11 تريد انزال راكب هنا.
هل هذا مسموح ؟

- نعم
- لا

12 توقفت هنا لانزال اغراض من السيارة.
هل هذا مسموح ؟

- نعم
- لا

13 توقفت هنا لانزال راكب من السيارة.
هل هذا مسموح ؟

- نعم
- لا

14 توقفت هنا لانزال راكب.
هل هذا مسموح ؟

- نعم
- لا

15 انت توقف سيارتك هنا.
هل هذا مسموح ؟

- نعم
- لا

16 تريد انزال راكب هنا.
هل هذا مسموح ؟

- نعم
- لا

17 تريد التوقف هنا. هل هذا مسموح ؟

- نعم
- لا

18 تريد الوقوف هنا. هل هذا مسموح ؟

- نعم
- لا

19 هل مسموح لك الوقوف هنا لانزال راكب ؟

- نعم
- لا

20 هل مسموح لك التوقف عند ملتقى الطرق هنا ؟

- نعم
- لا

21 هل مسموح لك التوقف عند مخرج الطريق ؟

- نعم
- لا

22 هل مسموح لك التوقف هنا ؟

- نعم
- لا

23 تريد الوقوف هنا لانزال راكب.
هل هذا مسموح ؟

- نعم
- لا

24 تريد تحميل اغراض في سيارتك هنا.
هل هذا مسموح ؟

- نعم
- لا

25 تريد التوقف هنا هل هذا مسموح ؟

- نعم
- لا

26 تريد التوقف هنا. هل هذا مسموح ؟

- نعم
- لا

27 انت توقفت هنا مع اشعال الاضوية التحذيرية. هل هذا مسموح ؟

- نعم
- لا

28 تريد الوقوف هنا لانزال راكب.
هل هذا مسموح ؟

- نعم
- لا

29 هل مسموح لك التوقف هنا ؟

- نعم
- لا

30 هذة العلامتان الواحدة تحت الاخرى.
ماذا تعني هذة العلامتان معا ؟

- غير مسموح لك التوقف من الساعة 08:00 الى الساعة 16:00 من الاثنين الى ومع الجمعة
- مسموح لك التوقف من الساعة 08:00 الى الساعة 16:00 من الاثنين الى ومع الجمعة

31 تريد الوقوف هنا لانزال راكب.
هل هذا مسموح ؟

- نعم
- لا

32 تريد الوقوف هنا لاخذ راكب معك.
هل هذا مسموح ؟

- نعم
- لا

33 تريد التوقف على العشب.
هل هذا مسموح ؟

- نعم
- لا

34 انت توقفت على العشب.
هل هذا مسموح ؟

- نعم
- لا

35 انت توقفت هنا. هل هذا مسموح ؟

- نعم
- لا

36 انت توقفت على العشب هنا.
هل هذا مسموح ؟

- نعم
- لا

37 هل مسموح لك التوقف هنا ؟

- نعم
- لا

38 هذة العلامتان الواحدة تحت الاخرى.
ماذا تعني هذة العلامتان معا ؟

- ممنوع التوقف على جهة اليمين واليسار
- ممنوع التوقف على جهة اليمين

39 ترغب في التوقف هنا. هل يجب عليك
اعطاء الاولوية للمشاة ؟

- نعم
- لا

40 تريد التوقف في هذا الشارع. على اي
جانب من الطريق مسموح الوقوف ؟

- مسموح على الجانب الايمن فقط
- مسموح التوقف على الجانبين

41 لك الحق في التوقف هنا لمدة ساعتين.
هل يجب عليك استعمال لوحة التوقف ؟

- نعم
- لا

42 تريد التوقف في الحي السكني.
هل يجب عليك التوقف هنا ؟

- نعم
- لا

43 انت توقفت هنا. هل هذا مسموح ؟

- نعم
- لا

44 هل مسموح لك التوقف هنا ؟

- نعم
- لا

45 هل مسموح لك التوقف هنا ؟

- نعم
- لا

46 انت توقف سيارتك هنا.
هل هذا مسموح ؟

- نعم
- لا

47 توقفت هنا لاجراء محادثة تلفونية.
هل هذا مسموح ؟

- نعم
- لا

اجوبة وشرح الفصل السابع

1 لا العلامة الموجودة على يمين الشارع معناها ممنوع التوقف على يمين الشارع.

2 لا العلامة الموجودة على يمين الشارع معناها ممنوع الوقوف والتوقف على يمين الشارع.

3 ممنوع الوقوف والتوقف الخط الاصفر المتصل معناة ممنوع الوقوف والتوقف للسائقين.

4 مسموح الوقوف الخط الاصفر المتقطع معناة مسموح الوقوف لصعود او نزول شخص من السيارة او للشحن او التفريغ من السيارة. هذا الخط معناة ايضا ممنوع التوقف (الباركن).

5 على جهة اليمين العلامات المرورية للوقوف والتوقف صالحة فقط على الجهة التي توضع عليها، ماعدا اذا كتب عليها كلمة منطقة (زونة) فهي صالحة على الجهتين اليسار واليمين ولجميع المنطقة.

6 على جهة اليمين واليسار العلامة صالحة على الجهتين اليمين واليسار. وكذلك على جميع طرق الحي لغاية وجود علامة اخرى تنهي هذة العلامة.

7 - 1+2 العلامة رقم 1 معناها ممنوع الوقوف والتوقف لذلك تحتوي على علامة اكس في المنتصف واحد للوقوف وواحد للتوقف. العلامة رقم 2 معناها ممنوع التوقف.

8 لا الخط الاصفر المتصل معناة ممنوع الوقوف والتوقف. لايسمح لك باي شكل من الاشكال الوقوف او التوقف هنا مهما كان السبب.

9 نعم الخط الاصفر المتقطع معناة ممنوع الوقوف. اذا يسمح لك في الوقوف لانزال او صعود اشخاص الى السيارة او لشحن وتفريغ السيارة.

10 لا لا يسمح لك في الوقوف او التوقف بجانب الخط الاصفر المتصل مهما كانت الاسباب.

11 لا لا يسمح لك في الوقوف او التوقف بجانب الخط الاصفر المتصل مهما كانت الاسباب.

12 لا لا يسمح لك بتجاوز الخط المتصل لطريق الدراجات. كذلك لا يسمح لك في الوقوف او التوقف او السياقة على هذا الطريق. كما لا يسمح لك بالوقوف جنب هذا الطريق لنزول او صعود اشخاص.

13 لا لا يسمح لك بالوقوف والتوقف على طريق الدراجات ذات الخط الابيض المتقطع. كذلك لا يسمح لك بالوقوف والتوقف على او جنب طريق الدراجات ذات الخط المتصل.

14 لا هذا طريق خاص لحافلات نقل الاشخاص. لاسيمح لك في السياقة هنا او الوقوف او التوقف. كذلك لا يسمح لك في التوقف او الوقوف بجانب هذا الطريق الخاص بحافلات نقل الاشخاص.

15 لا لا يسمح لك في الوقوف او التوقف على خطوط عبور المشاة او بالقرب منها. يجب ان تكون المسافة بين سيارتك و خطوط عبور المشاة هي 5 امتار او اكثر قبل خطوط عبور المشاة وبعدها.

16 لا يمنع الوقوف او التوقف داخل مسافة 5 متر من خطوط عبور المشاة.

17 لا هذا المكان مخصص للمعاقين. لايسمح لك في التوقف (الباركن) لكن يسمح لك في الوقوف.

18 نعم هذا المكان مخصص للمعاقين لكن يسمح لك في الوقوف لانزال راكب او صعود راكب.

19 نعم يسمح لك في انزال او صعود الركاب فقط في محطة وقوف الحافلات . ولا يسمح لك في التفريغ والتحميل. كما لا يسمح لك في الوقوف او التوقف داخل مسافة 12 متر عن محطة وقوف الحافلات (12 متر قبل محطة الوقوف و 12 بعد محطة الوقوف).

20 لا غير مسموح التوقف (الباركن) داخل مسافة 5 امتار من ملتقى الطرق. كما يمنع ايضا التوقف داخل ملتقى الطرق.

21 لا غير مسموح الوقوف او التوقف على الرصيف. كما يجب ان تكون المسافة 5 متر عن ملتقى الطرق.

22 نعم يسمح لك في الوقوف والتوقف على القنطرة . لكن ممنوع في النفق. ممنوع في المنحنيات.

23 نعم يسمح لك في الوقوف لانزال او صعود راكبين كما يسمح لك في الشحن او التفريغ.

24 نعم يسمح لك في التوقف للشحن والتفريف كما يسمح لك التوقف لصعود او نزول الراكبين.

25 لا لا يسمح لك في التوقف هنا. مسموح الوقوف للشحن والتفريغ او صعود و نزال الراكبين فقط.

26 لا غير مسموح لك التوقف في مكان يشكل صعوبة او ازعاج على السائقين الاخرين. انت بهذا تضيق الطريق على السائقين الاخرين وربما يشكل خطرا ايضا. تذكر ايضا خطر الوقوف في المنحنيات

27 لا توقفك هذا يعتبر توقف مضاعف وهذا ممنوع. تذكر انت تسبب ازعاج للسائقين الاخرين.

28 نعم مسموح لك انزال او صعود الراكبين على المكان المخصص لوقوف التاكسيات.

29 نعم يسمح لك في التوقف في الاماكن المخصصة للتوقف. انتبة جيدا للصور وحللها ولا تتعجل.

30 غير مسموح لك التوقف من الساعة 08:00 الى الساعة 16:00 من الاثنين الى ومع الجمعة لدينا العلامة الاولى وهية ممنوع التوقف اما العلامة الثانية التحتية فتحدد الفترة التي يمنع فيها التوقف.

31 نعم هذا الوقوف هنا مسموح بة. تاكد من عدم ازعاج الاخرين دائما.

32 لا لا سمح لك الوقوف على طريق الطوارئ لانزال او صعود الركاب. كما انو لا يسمح لك الوقوف على الخط السريع بما في ذلك خط الطوارئ الا اذا كان هنالك عطل في سيارتك.

33 لا توجد علامة ممنوع التوقف (الباركن).

34 نعم يسمح في الوقوف في اي مكان الا اذا كان هناك ما يمنع ذلك.

35 نعم انت دخل المدينة يسمح لك في التوقف في اي مكان لا يمنع فية التوقف.

36 نعم يسمح في التوقف خارج المدينة فقط اذا كان الطريق لا يعطي حق الاسبقية. اذا كان هنالك علامة اخرى في نفس الصورة فيها علامة الاسبقية فلا يحق لك التوقف في هذة الحالة. كما لا يسمح لك في التوقف خراج المدينة على الطريق الذي يحتوي على الاسبقية.

37 لا لان المسافة بين سيارتك والخط المتواصل غير كافية لكي تمر السيارات الاخرى من دون اختراق الخط المتواصل.

38 **ممنوع التوقف على جهة اليمين واليسار** لدينا العلامة الاولى وهية ممنوع التوقف اما العلامة الثانية التحتية فتحدد اتجاة المنع. وفي هذا *المثال المنع يكون على جهتي اليمين واليسار.*

39 **نعم** انت تريد الرجوع الى الخلف لكي توقف سيارتك. اذا انت مجبر على اعطاء الاسبقية لكل مستعمل الطريق. بما في ذلك المشاة عند الرجوع الى الخلف بسيارتك.

40 **مسموح التوقف على الجانبين** يسمح لك في التوقف على جانبي الطريق اذا لم يكن هناك ما يمنع.

41 **نعم** في العلامة المرورية مكتوب الحد الاقصى للوقت المسموح فية بالتوقف. في هذة العلامة الحد الاقصى هو ساعتان. في هذا المكان يسمح لك فقط التوقف في الاماكن المخصصة للتوقف والتي تحتوي على الخط الازرق بجانبها. يجب استعمال لوحة التوقف الزرقاء التي توضع في سيارتك لتحدد الوقف الذي توقفت فية.

42 **نعم** داخل الحي السكني المسمى باللغة الهولنية (ايرف erf) لا يسمح في التوقف الا في الاماكن المخصصة للتوقف والمكتوب عليها حرف P.

43 **لا** داخل الحي السكني المعروف ب (ايرف erf) لا يحق لك التوقف الا في الاماكن المخصصة لذلك والتي تحتوي على الحرف P.

44 **لا** غير مسموح لك التوقف على جانبي الطريق اذا كان هنالك علامة ممنوع التوقف في المنطقة (زونة zone). لكن مسموح التوقف في الاماكن المخصصة للتوقف فقط.

45 **نعم** علامة المنع هذة صالحة فقط على الجهة التي توضع فيها.

46 **نعم** انت توقف سيارتك في المكان المخصص للتوقف وهذا ليس ممنوع. ملاحظة انتبة الى الصورة جيدا وحللها ولا تتعجل في الاجابة.

47 **لا** لا يسمح لك في استعمال حافة طريق السيارات او الطريق السريع الا في حالة الضرورة. **ملاحظة:** انتبة جيدا الى الصورة وحللها ولا تتعجل في الاجابة. في هذا السؤال توجد علامة طريق السيارات والسيارة تقف بعد العلامة. **ملاحضة 2:** السرعة القصوى على طريق السيارات هي 100 كم في الساعة والسرعة الدنيا هي 50 كم في الساعة.

12 احيانا ترى عربات تحمل علامات مرورية.
متى تكون هذة العلامات صالحة للعمل ؟

- اذا كانت العربة تسير عل الطريق او متوقفة على خط الطوارئ
- اذا كانت العربة متوقفة على خط الطوارئ فقط

13 هل يجب عليك ترك مسافة بينك وبين السيارة التي امامك ؟

- نعم
- لا

14 انت تقود سيارتك بسرعة 90 كم في الساعة.
المسافة بينك وبين الشاحنة التي امامك هي 30 متر.
هل المسافة بينك وبين الشاحنة كافية ؟

- نعم
- لا

15 سيارتك فيها عطل وتنتظر المساعدة .
هل وقوفك بهذة الوضعية صحيح ؟

- نعم
- لا

16 سيارتك فيها عطل وتنتظر المساعدة.
هل وقوفك بهذة الوضعية صحيح ؟

- نعم
- لا

17 سيارتك فيها عطل وتنتظر المساعدة.
هل وقوف السيارة بهذا الشكل صحيح ؟

- نعم
- لا

18 توقفت هنا لاجراء محادثة تلفونية ضرورية. هل هذا مسموح ؟

- نعم
- لا

19 ماهي المسافة الصحيحة لوضع مثلث التحذير ؟

- على بعد 10 متر تقريبا خلف السيارة
- على بعد 30 متر تقريبا خلف السيارة

20 سيارتك فيها عطل. انت تقف هنا من غير اشعال الاضوية التحذيرية. هل هذا مسموح بة ؟

- نعم
- لا

21 اي من المركبات مسموح لها السياقة على الطريق السريع ؟

- المركبات التي تستطيع السير بسرعة 60 كم في الساعة واكثر
- المركبات التي تستطيع السير بسرعة 50 كم في الساعة او كثر

22 تريد الدخول الى الطريق. هل يجب عليك اعطاء اشارة الاتجاة الضوئية ؟

- نعم
- لا

23 بعد قليل تريد الدخول الى الطريق السريع. هل يجب عليك اعطاء اشارة الاتجاة الضوئية من الان ؟

- نعم
- لا

24 تريد الذهاب الى الخانة اليمين. هل يجب عليك اعطاء اشارة الاتجاة الضوئية ؟

- نعم
- لا

25 انت تعطي هنا اشارة الاتجاة الضوئية. هل هذا اجباري ؟

- نعم
- لا

26 تريد الدخول الي الطريق السريع. اين يجب عليك الدخول ؟

- امام الشاحنة
- خلف الشاحنة

27 تريد الدخول الى الطريق السريع الان. هل هذا مسموح ؟

- نعم
- لا

28 تريدالدخول الان. هل هذا مسموح ؟

- نعم
- لا

29 هل مسموح لك القيادة على خانة الطوارئ هنا ؟

- نعم
- لا

30 هنالك زحمة سير على الطريق السريع. سائق الدراجة النارية يتجاوز السائقين بهذة الطريقة. هل تفسح لة المجال؟

- نعم
- لا

31 خانتين اندمجت واصبحت خانة واحدة. هنالك سائق يريد الدخول. ماذا يجب ان تعمل ؟

- الذهاب الى خانة اليسار اذا كانت فارغة او التقليل من السرعة
- البقاء على نفس السرعة

32 تريد اجتياز الشاحنة من جهة اليمين. هل هذا مسموح ؟

- نعم
- لا

33 تريد الدخول الى الطريق السريع. متى يجب ان تعطي اشارة الاتجاة الضوئية ؟

- في بداية خانة الدخول
- في وسط خانة الدخول
- اذا كنت متاكد انك تستطيع الدخول

34 هنالك زحام شديد على الطريق السريع وترغب في الدخول. ماذا يجب ان تعمل ؟

- جعل السرعة متساوية مع بقية السيارات مع محاولة الدخول في المكان المناسب
- السير حتى نهاية ثم محاولة الدخول

35 انت تضغط على المكابح في خانة الخروج. هل هذا الفعل صحيح ؟

- نعم
- لا

36 تريد الخروج من الطريق السريع.
ماذا يجب عليك ان تفعل ؟

- الضغط على المكابح في خانة الخروج
- الضغط على المكابح قبل خانة الخروج

37 تريد الخروج من الطريق السريع.
ماذا يجب ان تضع في حسابك ؟

- جميع المخارج متشابهة
- المخارج على الطريق السريع ليست متشابهة

38 انت تقود سيارتك على الخانة اليمين.
هل هذا مسموح ؟

- نعم
- لا

39 انت تقود سيارتك هنا.
هل هذا مسموح ؟

- نعم
- لا

40 تسحب خلفك عربة وترغب في السياقة بسرعة 120 كم في الساعة. هل هذا مسموح ؟

- نعم
- لا

41 مجموع طول سيارتك مع العربة يساوي 8 متر. هل مسموح لك السياقة هنا ؟

- نعم
- لا

42 تريد الدخول الى الطريق السريع. هل تعطي السائق الذي يرغب في الخروج من الطريق السريع الاولوية ؟

- نعم
- لا

43 هل يجب عليك اعطاء الاولوية للمركبات التي تستعمل الضوء والصوت ؟

- نعم
- لا

44 السيارة بشكل مفاجئ تتجة نحوك.
ماذا تعمل ؟

- مسموح لك استعمل الضوء المتقطع او منبة السيارة
- مسموح لك فقط استعمال المنبة

45 تريد الذهاب الى اليسار.
هل هذا مسموح ؟

- نعم
- لا

46 ترغب في الذهاب الى جهة اليسار.
هل هذا مسموح ؟

- نعم
- لا

47 ترغب في الذهاب الى الامام. هل
تدع الشاحنة الذهاب الى اليمين ؟

- نعم
- لا

48 الشاحنة تسير ببطئ. هل مسموح لك
اجتيازها من جهة اليمين ؟

- نعم
- لا

49 السيارة لتي امامك تسير ببطئ لذلك ترغب
في تجاوزها. هل هذا مسموح ؟

- نعم
- لا

50 ماهو الغير مسموح على الطريق السريع ؟

- السياقة بسرعة 130 كم في الساعة
- السياقة بسرعة 50 كم في الساعة

51 توقفت هنا لتاخذ معك صديق.
هل هذا مسموح ؟

- نعم
- لا

52 ماذا تعني هذة العلامة ؟

- نهاية خانة الطوارئ
- نهاية جميع الممنوعات التي سبقت

53 ماذا تعني هذة العلامة ؟

- الطريق من جهة يمين ويسار العلامة هو طريق سريع
- الطريق فقط من جهة يمين العلامة هو طريق سريع

54 تقود سيارتك والظروف المناخية غير جيدة. هل السياقة بسرعة 130 كم في الساعة سياقة امنة ؟

- نعم
- لا

55 تقود سيارتك مع استعمال اضوية التنبية لانك لا تستطيع السير بسرعة اكثر من 50 كم في الساعة بسبب العطل. هل هذا مسموح ؟

- نعم
- لا

اجوبة وشرح الفصل الثامن

1 - 2 العلامة رقم 2 تمثل بداية الطريق السريع والعلامة رقم 1 تمثل نهاية الطريق السريع.

2 130 كم في الساعة السرعة القصوى على الطريق السريع في هولندا هية 130 كم في الساعة.

3 علامات السرعة الاجبارية علامات السرعة الالكترونية هي علامات اجبارية.

4 نهاية جميع العلامات التي سبقتها هذة العلامة تعني نهاية لجميع العلامات الالكترونية التي سبقتها والعودة الى الوضع الطبيعي.

5 انت تقود في الازدحام معنى علامة السرعة 50 على الطريق السريع ان هنالك ازدحام سير في غالب الاوقات او ان هنالك شغل على الطريق يجب الانتباة.

6 يسمح للشاحنات والحافلات السياقة هنا هذة الخانة مخصصة فقط للشاحنات والحافلات.

7 انتبة الطريق زلق بسبب التجمد والثلج احيانا بسبب البرودة الشديدة تحدث طبقة متجمدة على سطح الطريق تسبب الانزلاق للسيارات. لذلك يجب القيادة بحذر وعدم الضغط على المكابح مرة واحدة بل يجب تخفيف السرعة بالتدريج وترك مسافة كافية بينك وبين السيارة التي امامك.

8 الخانة التي تقود عليها ضيقة العلامات والخطوط الصفراء المؤقتة معناها ان هنالك اعمال شغل على الطريق وتحويلات مؤقتة للطريق. لذلك تكون هذة الخانات اصغر من الوضع الطبيعي لها في الكثير من الاحيان. كما يجب عليك تقليل السرعة في هذة الحالة.

9 الخطوط الصفراء الخطوط الصفراء تلغي الخطوط البيضاء. لذلك يجب اتباع الخطوط الصفراء.

10 السائقين الاخرين الذين يغيرون الخانة هذة العلامة معناها يجب ترك الخانة اليسار. الكثير من السائقين ينتظر حتى اللحظة الاخيرة لترك خانة اليسار. لذلك يجب الانتباة لهم اكثر.

11 انتبة يوجد شغل على الطريق السرعة القصوى هية 70 كم في الساعة هذة العلامة هية اجبارية وليست اختيارية.

22 نعم انت تقف على خانة الطوارئ وترغب في متابعة السير. اذا عليك زيادة السرعة على خانة الطوارئ وعندما تجد الفرصة المناسبة لدخول الطريق يجب عليك عندها اعطاء اشارة الاتجاة الضوئية.

23 لا لا يجب عليك اعطاء الاشارة الضوئية في الطريق الذي يؤدي الى خانة دخول الطريق السريع. اعطاء اشارة الاتجاة الضوئية يجب ان تكون فقط عندما تتاح لك الفرصة للدخول الى الطريق السريع.

21 المركبات التي تستطيع السير بسرعة 60 كم في الساعة واكثر اقل سرعة مسموح بها على الخط السريع هية 60 كم في الساعة. لذلك لا يسمح للعربات التي لا تزيد سرعتها عن 60 كم في الساعة السير على الخط السريع.

22 نعم انت تقف على خانة الطوارئ وترغب في متابعة السير. اذا عليك السير على خانة الطوارئ بسرعة وعندما تجد الفرصة المناسبة لدخول الطريق يجب عليك عندها اعطاء اشارة الاتجاة الضوئية.

23 لا لا يجب عليك اعطاء الاشارة الضوئية في الطريق الذي يؤدي الى خانة دخول الطريق السريع. اعطاء اشارة الاتجاة الضوئية يجب ان يكون فقط عندما تتاح لك الفرصة للدخول الى الطريق السريع.

24 نعم اذا كنت ترغب في تغيير الخانة التي انت بها يجب عليك اعطاء اشارة الاتجاة الضوئية. انتبة للسائقين الاخرين. يجب ان تكون المسافة بينك وبين السائق الذي يسير على الخانة التي تريد الذهاب اليها كافية وامنة.

25 لا يجب توقف اشارة الاتجاة الضوئية مباشرتا بعد الخروج التام من الطريق السريع اي اطفائها على اخر مربع ابيض في خانة الخروج.

26 امام الشاحنة السرعة القصوى للشاحنة على الطريق السريع هية 90 كم في الساعة. اذا هية ابطئ من السيارة الشخصية. لذلك يجب عليك زيادة سرعتك والدخول امام الشاحنة.

27 لا يتوجب عليك الدخول قبل نهاية خانة الدخول الى الطريق السريع.

28 لا حين تكون على خانة دخول الطريق السريع يجب عليك اعطاء الاولوية للسائقين المتواجدين على الطريق السريع. لا يسمح لك ابدا بالدخول الى الطريق السريع عنوة ومضايقة السائقين الاخرين.

12 اذا كانت العربة تسير على الطريق او متوقفة على خط الطوارئ يجب اتباع تعليمات هذة العربة. والتقيد في التعليمات التي توفرها.

13 نعم يجب ترك مسافة امان بينك وبين السيارة التي امامك. وكلما كانت السرعة اكثر يجب ترك مسافة اكبر على ان لا تقل عن 2 ثانية.

14 لا المسافة غير كافية. يجب ترك مسافة 2 ثانية بينك وبين المركبة التي امامك. **مثال** اذا كنت تسير بسرعة 90 كم في الساعة فتكون العملية الحسابية كالتالي: 90 ÷ 10 × 3 = 27 متر في الثانية. اذا لترك مسافة 2 ثانية تكون المعادلة كالتالي 2 × 27 = 54 متر. اذن اذا كنت تسير بسرعة 90 كم في الساعة يجب ترك مسافة بينك وبين السائق الذي امامك على الاقل 54 متر.

15 لا هذة الوضعية غير امنة بالنسة لك. يجب الوقوف خلف السياج الحديدي.

16 نعم هذا المكان هو مكان امن لك لحين الحصول على المساعدة. انتبة يجب الابتعاد قدر الامكان عن حافة الطريق. اما اذا كان السياج الحديدي غير موجود على حافة الطريق فيجب عليك التوقف على جانب الطريق اي على العشب.

17 لا اذا توقفت على خانة الطوارئ يجب الابتعاد قدر المستطاع عن الطريق.

18 لا غير مسموح لك استعمال خانة الطوارئ لاجراء المكالمات الهاتفية او لصعود ونزول الركاب. خانة الطوارئ تستعمل فقط اذا كان هنالك عطل في سيارتك او لقضاء حاجة الاطفال اذا كان الامر ضروري جدا.

19 على بعد 30 متر تقريبا خلف السيارة يمكن لك ايضا استعمال اضوية التحذير بدل من استعمال مثلث التحذير كما يمكن استعمالهما مع بعض.

20 لا يجب عليك استعمال الاضوية التحذيرية او وضع المثلث التحذيري.

21 المركبات التي تستطيع السير بسرعة 60 كم في الساعة واكثر اقل سرعة مسموح بها على الطريق السريع هية 60 كم في الساعة. لذلك لا يسمح للعربات التي لا تزيد سرعتها عن 60 كم في الساعة السير على الطريق السريع.

29 نعم السهم الاخضر فوق خانة القيادة معناة مسموح لك السياقة هنا. كذلك فوق خانة الطوارئ. ويسمح بالسياقة فوق خانة الطوارئ في وقت الذروة للتخفيف من الازدحام. كما يسمح لك في تغيير الخانة بوجود الخط المتصل.

30 نعم يسمح للدراجة النارية اذا كان هنالك زحام سير على الطريق السريع بتجاوز السائقين الاخرين بهذة الطريقة. لذلك يجب عليك ان تفسح المجال لة للعبور بشكل امن.

31 الذهاب الى خانة اليسار اذا كانت فارغة او التقليل من السرعة يجب مساعدة السائقين الاخرين بفسح المجال لهم للدخول الى الطريق السريع بالذهاب الى خانة اليسار اذا كان هذا ممكنا وامنا. اما اذا لم يكن هذا ممكنا قلل السرعة لاعطائة المجال. بهذا يكون دخول السائق الاخر امنا.

32 نعم مسموح لك التجاوز من جهة اليمين اذا كان هنالك مربعات بيضاء على الجهة اليسرى منك.

33 اذا كنت متاكد انك تستطيع الدخول اعطاء اشارة الاتجاة الضوئية يجب ان يكون فقط في اللحظة التي تستطيع فيها تدخل فيها الطريق السريع بشكل امن. الاولوية للسائقين الاخرين ولا يجوز الدخول التعسفي.

34 جعل السرعة متساوية مع بقية السيارات مع محاولة الدخول في المكان المناسب في الازدحام الشديد اعطي اشارة الاتجاة الضوئية وحاول الاتصال مع السائقين الاخرين عن طريق النظر لاعطائك المجال في الدخول.

35 نعم الضغط على المكابح (الفرامل) يجب ان يكون فقط في خانة الخروج وليس قبلها.

36 الضغط على المكابح في خانة الخروج من الافضل عدم ضغط المكابح (الفرامل) على الطريق السريع وانما تقليل السرعة عن طريق رفع القدم عن دواسة الوقود. ويكون الضغط على الفرامل في خانة الخروج.

37 المخارج على الطريق السريع ليست متشابهة مخارج الطريق السريع مختلفة في الطول وفي شدة الانحناء. احيانا يكون المخرج شديد الانحناء مما يتطلب تقليل السرعة بشكل كبير. يجب الانتباة لذلك.

38 نعم السياقة على جهة اليمين قدر الامكان. في حالة الازدحام يسمح بالسياقة على الخانات الاخرى وكذلك في حالة التجاوز او الانعطاف الى جهة اليسار.

39 لا لا يسمح لك في السياقة على خانة اليسار الا للتجاوز او في الازدحام او الانعطاف الى جهة اليسار.

40 لا اذا كنت تقود سيارة وتسحب خلفك عربة او بيت متنقل فالسرعة القصوى المسموح بها على الطريق السريع وكذلك على طريق السيارات هية 90 كم في الساعة. كما ان السرعة المسموح بها خارج المدينة هي 80 كيلو متر في الساعة.

41 لا اذا كان مجموع طول السيارة او الشاحنة مع العربة او البيت المتنقل اكثر من 7 متر لا يحق لك السياقة على الخانة اليسار. يحق لك في حالة الانعطاف الى جهة اليسار فقط.

42 نعم السائق الذي يريد الدخول الى الطريق السريع غالبا ما تكون سرعتة اقل من السائق المتواجد اصلا على الطريق السريع. لذلك من الافضل اعطائة الاولوية للسائقين الخارجين من الطريق السريع.

43 نعم في حالة عدم وجود خانة الطوارئ على الطريق السريع يجب اعطاء الاولوية الى جميع المركبات التي تستعمل الصوت والضوء للتنبية مثل سيارات الشرطة والاسعاف والمطافي وغيرها.في حالة اذا ما كان الطريق يحتوي على خانتين فقط يجب عليك ان تتجة الى اقصى يمين الخانة اذا كنت تسير على الخانة اليمين. اما اذا كنت تسير على الخانة اليسار فيجب عليك التوجة الى اقصى اليسار قدر الامكان لفتح المجال للمركبات ذات الاولوية.

44 مسموح لك استعمال الضوء المتقطع او المنبة ان استعمال منبة الصوت او الضوء المتقطع ممنوع الا في حالة وجود خطر وذلك لتنبية مستعملي الطريق.

45 نعم في مثل هذا الوضع مسموح لك الذهاب الى جهة اليسار.

46 لا لا يسمح لك بتجاوز الخط المتصل على الارض.

47 نعم دع سائق الشاحنة يذهب الى جهة اليمين بشكل امن. بامكانك استعمال الضوء المتقطع لتخبرة انة بامكانة الذهاب الى جهة اليمين.

الفصل الثامن

الطريق السريع

1 اي من هذة العلامتين تمثل بداية الطريق السريع ؟

1 2

- 1
- 2

2 ماهي السرعة القصوى على الطريق السريع ؟

- 100 كم في الساعة
- 130 كم في الساعة

3 علامات السرعة الالكترونية التي توجد فوق الطريق السريع. هل هية ؟

- علامات السرعة الاجبارية
- علامات سرعة ينصح بها

48 لا لا يسمح لك في الاجتياز من ناحية اليمين في هذة الحالة.

49 لا لا يسمح لك بتجاوز الخط المتصل.

50 السياقة بسرعة 50 من في الساعة اذا كنت تقود على الطريق السريع يجب السياقة بسرعة تتناسب مع سرعة الطريق وكذلك تتناسب مع سرعة السائقين الاخرين. ان السياقة ببطئ على الطريق السريع غير امنة وفيها خطر على السائقين. السرعة الدنيا على الطريق السريع هية 60 كيلو متر في الساعة. السرعة الدنيا على طريق السيارات هية 50 كيلو متر في الساعة.

51 لا لا يسمح لك بالتوقف على خط الطوارئ لانزال او ركوب الاشخاص. يسمح لك في التوقف فقط اذا كان هنالك عطل في السيارة.

52 نهاية خانة الطوارئ هذة العلامة معناها ان خانة الطوارئ قد تصبح ضيقة جدا اقل من 2 متر لذلك يجب الانتباة.

53 الطريق من جهة يمين ويسار العلامة هو طريق سريع العلامة ذات اللون الابيض و الاخضر تدل على ان الطريق اليمين والطريق اليسار هما طريقين سريعين.

54 لا يجب تقليل السرعة عندما تكون الاحوال الجوية غير جيدة مثل المطر الغزير اوعدم الرؤية الجيدة او تساقط الثلوج او الرياح العالية او الضباب الكثيف الخ.

55 لا انت تقود سيارتك على الطريق السريع ويسمح في السير هنا فقط اذا كنت قادرا على السير بسرعة اكثر من 60 كم في الساعة. لذا يجب عليك التوقف على خانة الطوارئ وطلب المساعدة.

4 ماذا تعني هذة العلامات الالكترونية ؟

- نهاية جميع العلامات التي سبقتها
- نهاية علامات السرعة القصوى

5 ماذا تعني اللوحات الالكترونية هذة ؟

- السرعة التي ينصح بها
- انت تقود في الازدحام

6 ماذا تعني هذة العلامة على جهة اليمين ؟

- يسمح للشاحنات والحافلات السياقة هنا
- لا يسمح للشاحنات والحافلات السياقة هنا

7 ماذا تعني هذة العلامة ؟

- انتبة الطريق زلق بسبب الامطار
- انتبة الطريق زلق بسب التجمد والثلج

8 الخطوط الصفراء المؤقتة
على الطريق تدل على ان ؟

- الخانة التي تقود عليها عريضة
- الخانة التي تقود عليها ضيقة

9 هل يجب اتباع الخطوط الصفراء المؤقتة ان
وجدت ام الخطوط البيضاء ؟

- الخطوط الصفراء
- الخطوط البيضاء

10 عندما ترى هذة العلامة
يجب الانتباه الى ؟

- تغيير الخانة في الوقت المناسب
- السائقين الاخرين الذين يغيرون الخانة

11 ماذا تعني هذة العلامة ؟

- انتبه يوجد شغل على الطريق. السرعة القصوى 70 كم في الساعة
- انتبه يوجد شغل على الطريق. السرعة التي ينصح بها هي 70 كم في الساعة

الفصل التاسع

اولوية السير (1)

تقاطع الطرق المتساوية (بدون علامات الاسبقية)

القاعدة رقم 1

اعطاء الاسبقية لجميع السائقين القادمين من جهة اليمين

1 تريد الذهاب الى الامام. هل تدع السيارة تذهب اولا ؟

- نعم
- لا



2 تريد الذهاب الى الامام. هل تدع الدراجة الهوائية تذهب اولا ؟

- نعم
- لا

3 تريد الذهاب الى الامام. هل تدع راكب وسيلة نقل المعاقين يذهب اولا ؟

- نعم
- لا

4 تريد الذهاب الى الامام. هل تدع هذا الفارس يذهب اولا ؟

- نعم
- لا



5 تريد متابعة السير الى الامام. هل تدع هذا الراجل يذهب اولا ؟

- نعم
- لا

6 انت قادم من طريق ترابي. هل تدع السيارة تذهب اولا ؟

- نعم
- لا

7 انت قادم من طريق ترابي.
هل تدع الفارس يذهب اولا ؟

- نعم
- لا

8 تريد الذهاب الى الامام. هل تدع سائق هذة السيارة (بروم موبيل) ان يمر اولا ؟

- نعم
- لا



9 تريد متابعة الطريق الى الامام.
هل تدع سائق الدراجة يذهب اولا ؟

- نعم
- لا

10 تريد متابعة الطريق الى الامام.
هل تدع سائق الدراجة يذهب اولا ؟

- نعم
- لا

11 تريد متابعة الطريق الى الامام.
هل تدع سائق الدراجة يذهب اولا ؟

- نعم
- لا

القاعدة رقم 2

الانعطاف الصغير لة الاسبقية على الانعطاف الكبير



12 تريد الانعطاف الى جهة اليمين.
هل تدع سائق السيارة يمر اولا ؟

- نعم
- لا



13 تريد الذهاب الى جهة اليسار.
هل تدع سائق السيارة يمر اولا ؟

- نعم
- لا

قاعدة رقم 3

اعطاء الاسبقية لجميع مستعملي الطريق عند تغيير الاتجاة سواء لليمين او لليسار

14 تريد الذهاب الى جهة اليمين.
هل تدع المشاة يذهب اولا ؟

- ☐ نعم
- ☐ لا

15 تريد الذهاب الى جهة اليمين.
هل تدع المشاة يذهب اولا ؟

- ☐ نعم
- ☐ لا

16 تريد الذهاب الى جهة اليمين.
هل تدع الدراجة تذهب اولا ؟

- ☐ نعم
- ☐ لا

17 تريد الذهاب الى جهة اليسار.
هل تدع الراجل يذهب اولا ؟

- ☐ نعم
- ☐ لا



18 تريد الذهاب الى جهة اليسار.
هل تدع السيارة تذهب اولا ؟

- ☐ نعم
- ☐ لا



19 تريد الذهاب الى جهة اليسار.
هل تدع الدراجة تذهب اولا ؟

- ☐ نعم
- ☐ لا



20 تريد متابعة السير الى الامام.
هل تدع السيارة تذهب اولا.

- ☐ نعم
- ☐ لا



21 ماهو التسلسل الصحيح للاسبقية ؟

- الدراجة - الراجل - انا
- الراجل - انا - الدراجة
- الدراجة - انا - الراجل

22 تريد متابعة السير الى الامام.
هل تدع الدراجين يمرون اولا ؟

- نعم
- لا

23 تريد متابعة السير الى لامام.
هل تدع السيارة تذهب اولا ؟

- نعم
- لا

24 تريد متابعة السير الى الامام.
هل تدع السيارة تمر اولا ؟

- نعم
- لا



25 ماهو التسلسل الصحيح للاسبقية ؟

- السيارة - الدراجة النارية - انا
- انا - الدراجة النارية - السيارة
- السيارة - انا - الدراجة النارية

القاعدة رقم 4

الترام لة الاسبقية دائما في التقاطعات المتساوية

26 تريد متابعة السير الى الامام.
هل تدع الترام يذهب اولا ؟

- نعم
- لا

27 تريد متابعة السير الى الامام.
هل تدع الترام يذهب اولا ؟

- نعم
- لا



28 تريد متابعة السير الى الامام.
هل تدع الترام يذهب اولا ؟

- نعم
- لا

29 تريد متابعة السير الى الامام.
هل تدع ركاب الترام يمرون اولا ؟

- نعم
- لا

30 تريد الرجوع الى الخلف. هل
تدع سائق الدراجة يذهب اولا ؟

- نعم
- لا

31 تريد الرجوع الى الخلف.
هل تدع الراجل يمر اولا ؟

- نعم
- لا

32 تريد مغادرة موقف السيارات.
هل تدع السيارة تمر اولا ؟

- نعم
- لا

33 تريد مغادرة موقف السيارات.
هل تدع الراجل يمر اولا ؟

- نعم
- لا

34 هذا الرجل الضرير يريد قطع الطريق.
هل يجب عليك ان تدعة يمر ؟

- نعم
- لا

35 تريد الخروج من الدوار. هل تدع
سائق الدراجة يمر اولا ؟

- نعم
- لا

36 تريد الخروج من الدوار.
هل تدع الراجل يمر اولا ؟

- نعم
- لا

37 تريد متابعة الطريق الى الامام.
هل تدع قافلة الجيش تمر اولا ؟ ؟

- نعم
- لا

38 تريد متابعة الطريق الى الامام.
هل تدع قافلة الجيش تمر اولا ؟

- نعم
- لا

39 ماهو الترتيب الصحيح للاسبقية ؟

- السيارة 2 - السيارة 1- انا
- السيارة 1- السيارة 2 - انا
- السيارة 2 - انا - السيارة 1

اجوبة وشرح اولوية السير (1)

1 نعم اذا كان تقاطع الطرق بدون علامات اسبقية يجب اعطاء الاسبقية لجميع السائقين القادمين من جهة اليمين.

2 نعم يجب اعطاء الاسبقية لسائق الدراجة القادم من جهة اليمين في التقاطعات المتساوية التي لا يوجد فيها علامات اسبقية.

3 نعم وسائل نقل المعاقين يعتبرون من السائقين ايضا.

4 نعم الفارس يعتبر سائق ايضا اذا كان يسحب الحصان بيدة او راكبا علية.

5 لا المشاة او الراجلين لا يعتبرون سائقين . وبهذة الحالة لاتعطى لهم الاسبقية.

6 نعم اذا كنت قادم من طريق غير معبد او ترابي فيجب عليك اعطاء الاسبقية لجميع مستعملي الطريق الذين يسيرون على الطريق المعبد من جهة اليمين او اليسار.

7 نعم نفس الاجابة السابقة رقم 6. الفارس اذا كان راكبا او يسير جنب الحصان يعتبر سائق.

8 نعم جميع السائقين القادمين من جهة اليمين في التقاطع المتساوي (الذي لا توجد فية علامات اسبقية) يجب اعطائهم الاسبقية.

9 نعم جميع السائقين القادمين من جهة اليمين في التقاطع المتساوي (الذي لا توجد فية علامات اسبقية) يجب اعطائهم الاسبقية. العلامة الصفراء معناها انتهاء الاسبقية لك.

10 نعم يجب اعطاء الاولوية لجميع السائقين القادمين من جهة اليمين على طريق الدراجات في تقاطع الطريق المتساوية التي لا تحتوي على علامات اسبقية.

11 لا جميع السائقين القادمين من جهة اليسار في التقاطعات المتساوية التي لا تحتوي على علامات اسبقية لا تعطى لهم الاسبقية.

12 لا الانعطاف الصغير لة الاسبقية على الانعطاف الكبير,

13 نعم الانعطاف الصغير لة الاسبقية على الانعطاف الكبير.

14 نعم يجب اعطاء الاسبقية لجميع مستعملي الطريق (السائقين والمشاة) عند تغيير الاتجاة سواء الى اليمين او الى اليسار.

15 نعم يجب اعطاء الاسبقية لجميع مستعملي الطريق (السائقين والمشاة) عند تغيير الاتجاة سواء الى اليمين او الى اليسار.

16 نعم يجب اعطاء الاسبقية لجميع مستعملي الطريق (السائقين والمشاة) عند تغيير الاتجاة سواء الى اليمين او الى اليسار.

17 نعم يجب اعطاء الاسبقية لجميع مستعملي الطريق (السائقين والمشاة) عند تغيير الاتجاة سواء الى اليمين او الى اليسار.

18 نعم يجب اعطاء الاسبقية لجميع مستعملي الطريق (السائقين والمشاة) عند تغيير الاتجاة سواء الى اليمين او الى اليسار.

19 نعم يجب اعطاء الاسبقية لجميع مستعملي الطريق (السائقين والمشاة) عند تغيير الاتجاة سواء الى اليمين او الى اليسار.

20 لا انت تسير الى الامام والسائق الاخر يريد تغيير اتجاهة الى اليسار اذا الاسبقية لك. تمر انت اولا ومن ثم السائق الاخر.

21 الراجل - انا - الدراجة الراجل يسير الى الامام اما الدراجة وانت فانكما في حالة تغيير الاتجاة (الانعطاف) اذا الراجل يمر اولا. انت تمر ثانيا لان الانعطاف الصغير قبل الانعطاف الكبير.

22 نعم يجب اعطاء الاسبقية للسائقين الاخرين لان العائق في الجهة التي تسير فيها انت. وفي هذة الحالة العائق هو السيارة المتوقفة على الطريق. اذا يجب اعطاء الاولوية لجميع السائقين الاخرين اذا كان العائق في اتجاة سيرك (مهما كان نوع هذا العائق).

23 نعم نفس الاجابة السابقة رقم 22 .

24 لا طريقك مفتوح امامك. اما العائق في هذة الحالة فهو في الاتجاة الاخر. اذا على السائق الاخر ان يتوقف لتكمل طريقك.

25 انا - الدراجة النارية - السيارة انت تسير اولا لان الانعطاف الصغير قبل الانعطاف الكبير اما الدراجة النارية فهي على يسارك. الدراجة تسير ثانيا لانها على يمين السيارة.

26 نعم الترام لة الاسبقية من جميع الجهات في التقاطعات المتساوية (التي لا تحتوي على علامات اسبقية) قاعدة خاصة للترام فقط. يحق لك السير فقط اذا كان للترام علامة اسنان القرش.

27 نعم الترام لة الاسبقية من جميع الجهات في التقاطعات المتساوية (التي لا تحتوي على علامات اسبقية) قاعدة خاصة للترام فقط. الترام لة الاسبقية دائما ما عدا اذا كان لدية علامة اسنان القرش.

28 نعم الترام لة الاسبقية من جميع الجهات في التقاطعات المتساوية (التي لا تحتوي على علامات اسبقية). حتى المشاة يجب عليهم اعطاء الاسبقية للترام في جميع الاحوال اذا لم تكن هنالك علامات اسبقية. هذا القانون استثناء فقط للترام اي لا ينطبق على غيرة مثل الحافلات وغيرها.

29 لا محطة الترام هذة تحتوي على رصيف امن لركاب الترام. اذا لا تعطى لهم الاولوية.

30 نعم في حالة الرجوع الى الخلف يجب اعطاء حق الاسبقية لجميع مستعملي الطريق (السائقين والمشاة).

31 نعم في حالة الرجوع الى الخلف يجب اعطاء حق الاسبقية لجميع مستعملي الطريق (السائقين والمشاة).

32 نعم عند مغادرة موقف السيارات (الباركن) يجب اعطاء جميع مستعملي الطريق حق الاسبقية (السائقين والمشاة).

33 نعم عند مغادرة موقف السيارات (الباركن) يجب اعطاء جميع مستعملي الطريق حق الاسبقية (السائقين والمشاة).

34 **نعم** الانسان المكفوف الغير قادر على الرؤية والانسان الذي لة صعوبة في التحرك يجب ان تمنحهم الاسبقية من اجل العبور.

35 **نعم** يجب اعطاء جميع مستعملي الطريق (المشاة والسائقين) الاسبقية في المرور الخروج من الدوار مع او بدون علامات الاسبقية.

36 **نعم** يجب اعطاء جميع مستعملي الطريق (المشاة والسائقين) الاسبقية في المرور الخروج من الدوار مع او بدون علامات الاسبقية.

37 **لا** لديك حق الاولوية هنا على سيارات الجيش. لكن لا يسمح لك باختراق صف سيارات الجيش.

38 **نعم** لا يسمح باختراق صف الجيش حتى وان كان لديك حق الاولوية.

39 **السيارة 2 - انا - السيارة 1** السيارة 2 تمر اولا لانها على جهة اليمين منك. وكذلك هية تنعطف انعطاف صغير والقاعدة تقول الانعطاف الصغير قبل الانعطاف الكبير. انت تمر ثانيا لان السيارة 1 تقع على جهة اليسار منك.

اولوية السير (2)

تقاطع الطرق ذات الاسبقية (وجود علامات الاسبقية)

1 تريد الذهاب الى الامام.
هل تدع السيارة تذهب اولا ؟

- نعم
- لا

2 تريد الذهاب الى جهة اليسار.
هل تدع الدراجة تذهب اولا ؟

- نعم
- لا

3 تريد الذهاب الى الامام والسيارة الاخرى تريد الذهاب الى اليسار. هل تدع السيارة تمر اولا ؟

- نعم
- لا

4 تريد الذهاب الى جهة اليمين.
هل تدع الدراجة تمر اولا ؟

- نعم
- لا

5 تريد الذهاب الى جهة اليمين.
هل تدع الدراجة تمر اولا ؟

- نعم
- لا

6 تريد الذهاب الى جهة اليسار.
هل تدع الراجل يمر اولا ؟

- نعم
- لا

7 تريد الذهاب الى الامام.
هل تدع السيارة تمر اولا ؟

- نعم
- لا

8 تريد الذهاب الى اليمين.
هل تدع الراجل يمر اولا ؟

- نعم
- لا

9 تريد الذهاب الى الامام. هل
تدع راكب الدراجة يمر اولا ؟

- نعم
- لا

10 تريد الذهاب الى جهة اليسار. هل
تدع سائقين الدراجات يمرون اولا ؟

- نعم
- لا

11 لا يوجد سائقين على الطريق. وتوقفت عند
علامة اسنان القرش. هل هذا اجباري ؟

- نعم
- لا

16 تريد الذهاب الى جهة اليسار.
هل تدع سائق الدراجة يمر اولا ؟

- نعم
- لا

17 تريد الذهاب الى الامام. هل تدع سائق السيارة يمر اولا ؟

- نعم
- لا

18 تريد الذهاب الى جهة اليسار.
هل تدع الراجل يمر اولا ؟

- نعم
- لا

19 انت قادم من مخرج. هل يجب اعطاء الاسبقية لجميع مستعملي الطريق ؟

- نعم
- لا

12 تريد الذهاب الى الامام.
هل تدع السيارة تمر اولا ؟

- نعم
- لا

13 تريد الذهاب الى اليسار.
هل تدع سائق الدراجة يمر اولا ؟

- نعم
- لا

14 تريد الذهاب الى الامام.
هل تدع الراجل يمر اولا ؟

- نعم
- لا

15 تريد الذهاب الى جهة اليسار.
هل تدع الراجل يمر اولا ؟

- نعم
- لا

20 تريد الذهاب الى جهة اليسار. هل تدع هذا الشخص الذي يرتدي الاحذية ذات العجلات ان يمر اولا ؟

- نعم
- لا

21 تريد الذهاب الى جهة اليمين. هل تدع هذا الراجل يمر اولا ؟

- نعم
- لا

22 تريد الذهاب الى الامام. هل يجب عليك ان تدع الحافلة تمر اولا ؟

- نعم
- لا

23 تريد الذهاب الى الامام. هل يجب عليك ان تدع الحافلة تمر اولا ؟

- نعم
- لا

24 هل تدع الحافلة تمر اولا ؟

- نعم
- لا

25 اي نوع من انواع الحافلات يجب اعطائها اسبقية المرور دخل المدينة ؟

- حافلات نقل الركاب والحافلات السياحية
- حافلات نقل الركاب فقط

26 تريد الذهاب الى الامام. هل يجب عليك اعطاء الاسبقية للمشاة ؟

- نعم
- لا

27 تريد الذهاب الى الامام. هل يجب عليك اعطاء الاسبقية للمشاة ؟

- نعم
- لا

28 تريد الذهاب الى الامام.
هل تدع السيارة تمر اولا ؟

- نعم
- لا

29 تريد الذهاب الى الامام.
هل تدع السيارة تمر اولا ؟

- نعم
- لا

30 تريد الذهاب الى الامام. هل تدع سيارة الشرطة التي لا تستعمل الصافرة و الضوء ان تمر اولا ؟

- نعم
- لا

31 ماهو التسلسل الصحيح لاعطاء الاسبقية

- السيارة - انا - الراجل
- السيارة - الراجل - انا
- انا - الراجل - السيارة

32 ماهو التسلسل الصحيح لاعطاء الاسبقية هنا ؟

- الدراجة - الراجل - انا
- انا - الراجل - الدراجة
- الدراجة - انا - الراجل



33 ماهو التسلسل الصحيح لاعطاء الاسبقية هنا ؟

- الدراجة ذات المحرك - الدراجة - انا
- الدراجة ذات المحرك - انا - الدراجة
- الدراجة - الدراجة ذات المحرك - انا



34 ماهو التسلسل الصحيح لاعطاء الاسبقية هنا ؟

- السيارة - انا - الدراجة
- الدراجة - السيارة - انا
- السيارة - الدراجة - انا



35 ماهو التسلسل الصحيح لاعطاء الاسبقية هنا

- السيارة - انا - الدراجة
- السيارة - الدراجة - انا
- الدراجة - السيارة - انا



36 ماهو التسلسل الصحيح لاعطاء الاسبقية هنا ؟

- السيارة - انا - الدراجة
- انا - السيارة - الدراجة
- الدراجة - السيارة - انا

37 تريد الذهاب الى جهة اليمين . هل تدع الدراجة تمر اولا ؟

- نعم
- لا

38 تريد الذهاب الى اليسار. هل تدع السيارة تذهب اولا ؟

- نعم
- لا

39 تريد مغادرة الدوار. هل تدع الراجل يمر اولا ؟

- نعم
- لا



40 ماهو التسلسل الصحيح لاعطاء الاسبقية هنا؟

- الدراجة 1 - انا - السيارة - الدراجة 2
- السيارة - انا - الدراجة 1 - الدراجة 2
- الدراجة 1 - الدراجة 2 - السيارة - انا



41 ماهو التسلسل الصحيح لاعطاء الاسبقية هنا؟

- السيارة - انا - الدراجة - المشاة
- المشاة - انا - السيارة - الدراجة
- انا - المشاة - السيارة - الدراجة

42 ماهو التسلسل الصحيح لاعطاء الاسبقية

- السيارة - الراجل - انا
- انا - السيارة - الراجل
- السيارة - انا - الراجل

43 تريد متابعة الطريق الى الامام. هل تدع الدراجة تمر اولا ؟

- نعم
- لا

44 ماهو التسلسل الصحيح لاعطاء الاسبقية هنا ؟

- السيارة 1 - انا - السيارة 2 - الراجل
- انا - السيارة 1- السيارة 2 - الراجل
- الراجل - السيارة 1- انا - السيارة 2

45 ماهو التسلسل الصحيح لاعطاء الاسبقية هنا ؟

- السيارة - انا - الدراجة 1- الدراجة 2
- انا - السيارة - الدراجة 1 - الدراجة 2
- الدراجة 1 - الدراجة 2 - انا - السيارة

46 ماهو التسلسل الصحيح لاعطاء الاسبقية هنا ؟

- انا - الدراجة - الراجل
- انا - الراجل - الدراجة
- الراجل - انا - الدراجة

47 ماهو التسلسل الصحيح لاعطاء الاسبقية هنا ؟

- انا - الترام - الدراجة
- انا - الدراجة - الترام
- الترام - انا - الدراجة

اجوبة وشرح اولوية السير 2

1 نعم يوجد في طريقك علامة اعطاء الاسبقية للسائقين الاخرين (اسنان القرش). اذا يجب اعطاء حق الاسبقية في تقاطع الطرق لجميع السائقين من جهة اليمين ومن جهة اليسار.

2 نعم يوجد في طريقك علامة اعطاء الاسبقية للسائقين الاخرين (اسنان القرش). اذا يجب اعطاء حق الاسبقية في تقاطع الطرق لجميع السائقين من جهة اليمين ومن جهة اليسار.

3 لا السائق الذي ينعطف الى جهة اليمين او الى جهة اليسار يجب ان يعطي حق الاسبقية لجميع مستخدمي الطريق الاخرين (السائقين والمشاة).

4 نعم السائق الذي ينعطف الى جهة اليمين او الى جهة اليسار يجب ان يعطي حق الاسبقية لجميع مستخدمي الطريق الاخرين (السائقين والمشاة).

5 لا انت والسائق الاخر ترغبان في الذهاب الى نفس الاتجاة. اذا السائق الذي يتجة الى جهة اليمين هو الذي يمر اولا. (قاعدة : الانعطاف الصغير قبل الانعطاف الكبير).

6 نعم السائق الذي ينعطف الى جهة اليمين او الى جهة اليسار يجب ان يعطي حق الاسبقية لجميع مستخدمي الطريق الاخرين (السائقين والمشاة).

7 نعم علامة قف معناها يجب ان تتوقف تماما عند تقاطع الطرق حتى اذا كان تقاطع الطرق خاليا من السائقين. وكذلك يجب اعطاء حق الاسبقية لجميع السائقين.

8 نعم السائق الذي ينعطف الى جهة اليمين او الى جهة اليسار يجب ان يعطي حق الاسبقية لجميع مستخدمي الطريق الاخرين (السائقين والمشاة).

9 نعم سائق الدراجة قادم من جهة اليمين اذا الاسبقية له. هذة العلامة تعني انتهاء الاسبقية بالنسبة لك.

10 نعم السائق الذي ينعطف الى جهة اليمين او الى جهة اليسار يجب ان يعطي حق الاسبقية لجميع مستخدمي الطريق الاخرين (السائقين والمشاة).

11 لا عليك بالتوقف فقط عندما تريد اعطاء الاسبقية.

12 لا لديك علامة الاسبقية اذا الاسبقية لك.

13 لا في تقاطع الطرق المتساوية (الخالية من علامات الاسبقية) يجب اعطاء حق الاسبقية للسائقين القادمين من جهة اليمين فقط.

14 لا لا توجد منطقة عبور مشاة هنا في هذا الحي السكني. لكن يجب الانتباة الى الاطفال في هذة المنطقة السكنية. السرعة القصوى هنا 15 كم في الساعة.

15 نعم تريد الخروج من الحي السكنية اذا الحديث هنا عن مخرج لذلك يجب اعطاء الاسبقية لجميع مستخدمي الطريق (السائقين والمشاة) من جهة اليمين واليسار.

16 نعم في تقاطع الطرق المتساوية (الخالية من علامات الاسبقية) يجب اعطاء الاسبقية للسائقين القادمين من جهة اليمين.

17 لا السيارة قادمة من مخرج (المخرج هو امتداد للرصيف ويكون مرتفع قليلا عن ارض الطريق). اذا السيارة يجب ان تنتظر مرورك اولا. ولا يجب عليك اعطائها الاسبقية. الاسبقية لك.

18 نعم انت قادم على مخرج اذا يجب اعطاء جميع مستخدمي الطريق حق الاسبقية (السائقين والمشاة) من جهة اليمين ومن جهة اليسار.

19 نعم يجب عليك اعطاء حق الاسبقية لجميع مستخدمي الطريق (السائقين والمشاة) عند المخرج او المدخل ايضا. المخرج والمدخل هو نفسة عندما تريد الخروج من الشارع يسمى (مخرجا اوت ريت) وعندما تريد الدخول للشارع يسمى (مدخلا ان ريت). والمدخل والمخرج هو عبارة عن امتداد للرصيف مرتفع قليلا عن الطريق.

20 نعم عند مغادرة المخرج يجب اعطاء حق الاسبقية لجميع مستعملي الطريق المشاة والسائقين.الشخص الذي يرتدي الحذاء المتحرك يعتبر من المشاة.

21 نعم انت قادم من مخرج لذلك يجب اعطاء حق الاسبقية لجميع مستخدمي الطريق (السائقين والمشاة) كذلك انت تنعطف الى جهة اليمين لذلك ايضا يجب ان تعطي الاسبقية لجميع مستخدمي الطريق. القاعدة تقول عند تغيير الاتجاة يجب اعطاء الاسبقية لجميع مستخدمي الطريق.

22 نعم اذا كنت تقود داخل المدينة يجب عليك اعطاء الاسبقية لحافلة نقل الركاب التي تغادر محطة الوقوف. ترى ذلك عندما يستخدم سائق الحافلة اشارة الاتجاة الضوئية.

23 لا اذا كنت تقود خارج المدينة لا يتوجب عليك اعطاء الاسبقية لحافلة نقل الركاب.

24 لا الاسبقية لك وذلك لوجود علامة الاسبقية.

25 **حافلات نقل الركاب والحافلات السياحية** يجب اعطاء الحافلات التي تغادر موقف الركاب حق الاسبقية سواء كانت حافلات لنقل الركاب او لنقل السياح.

26 نعم انت تقود هنا على جسر صغير ضيق ولديك علامة منح الاسبقية للسائقين. السهم الاحمر يعني يجب عليك اعطاء حق الاسبقية للسائقين. هذة لعلامة ليست للمشاة ولكن على الجسر الضيق يجب اعطاء الاولوية للمشاة.

27 نعم يوجد امامك طريق ضيق. السهم الابيض الموجود في العلامة المرورية معناة ان لديك حق الاسبقية للمرور. لكن هذة العلامة تنطبق فقط على السائقين وليس المشاة.(لكن المشاة لهم حق الاسبقية في الطرق الضيقة دائما).

28 نعم تقود في طريق ضيق هذا يعني انة لا يمكن ان تمر سيارتين معا. في العلامة المرورية يوجد سهم احمر على جهة اليمين التي هية الجهة التي تقود عليها ومعناة انك يجب ان تعطي حق الاسبقية للسائق الاخر. اذا السائق الاخر هو الذي يمر اولا.

29 لا تقود في طريق ضيق هذا يعني انة لا يمكن ان تمر سيارتين معا. في العلامة المرورية يوجد سهم ابيض على جهة اليمين التي هية الجهة التي تقود عليها ومعناة ان حق الاسبقية لك. اذا السائق الاخر هو الذي ينتظر.

30 لا علامة الاسبقية لك. سيارة الشرطة او الاسعاف او الحريق الخ التي لا تستعمل الصوت و الضوء المنبة لا تعطى حق الاسبقية.

31 السيارة - انا - الراجل السيارة تمر اولا لان لايوجد مانع لديها. انت تمر ثانيا لانك يجب ان تعطي حق الاسبقية للسيارة من خلال علامة اسنان القرش. المشاة ليس لة حق في العبور قبلك لانة لا توجد هناك منطقة لعبوة المشاة.

32 الدراجة - الراجل - انا الدراجة تمر اولا لان لديها حق الاسبقية وانت لديك علامة اسنان القرش. الراجل يمر ثانيا لان ليس لدية منطقة عبور بالنسبة للدراجة. وكذلك يجب اعطائة حق الاسبقية لانك تنعطف الى اليمين وهو ذاهب الى الامام.

33 الدراجة - الدراجة ذات المحرك - انا الدراجة تمر اولا لانها ذاهبة الى الامام. الدراجة ذات المحرك تمر ثانيا لانها تنعطف الى اليسار لذلك يجب ان تعطي الاولورية للدراجة. انت اخيرا لان لديك علامة اعطاء الاسبقية للاخرين (اسنان القرش).

34 الدراجة - السيارة - انا السيارة وانت لديكما علامة منح الاسبقية للسائقين الاخرين. اذا الدراجة تمر اولا. السيارة تمر ثانيا لانها ذاهبة الى الامام وانت تريد الانعطاف الى اليسار.(السائق الذي ينعطف الى اليسار او الى اليمين يجب ان يعطي حق الاسبقية لجميع مستعملي الطريق الاخرين). اذا انت تمر اخيرا.

35 السيارة - الدراجة - انا الدراجة وانت لديكما علامة منح الاسبقية للسائقين الاخرين. اذا السيارة تمر اولا. الدراجة تمر ثانيا لانها ذاهبة الى الامام وانت تريد الانعطاف الى جهة اليسار. (قاعدة: السائق الذي ينعطف الى جهة اليسار او الى جهة اليمين يجب ان يعطي حق الاسبقية لجميع مستعملي الطريق).انت تمر اخيرا.

36 انا - السيارة - الدراجة انا امر اولا لان لدي علامة حق الاسبقية. الدراجة تمر ثالثا لان لديها علامة منح الاسبقية للسائقين الاخرين (اسنان القرش). اذا السيارة تمر ثانيا.

37 لا توجد علامة منح الاسبقية على طريق الدراجات (اسنان القرش). لذلك الدراجة يجب ان تتوقف وانت تتابع سيرك.

30 لا علامة الاسبقية لك. سيارة الشرطة او الاسعاف او الحريق الخ التي لا تستعمل الصوت و الضوء المنبة لا تعطى حق الاسبقية.

31 السيارة - انا - الراجل السيارة تمر اولا لان لايوجد مانع لديها. انت تمر ثانيا لانك يجب ان تعطي حق الاسبقية للسيارة من خلال علامة اسنان القرش. المشاة ليس لة حق في العبور قبلك لانة لا توجد هناك منطقة لعبوة المشاة.

32 الدراجة - الراجل - انا الدراجة تمر اولا لان لديها حق الاسبقية وانت لديك علامة اسنان القرش. الراجل يمر ثانيا لان ليس لدية منطقة عبور بالنسبة للدراجة. وكذلك يجب اعطائة حق الاسبقية لانك تنعطف الى اليمين وهو ذاهب الى الامام.

33 الدراجة - الدراجة ذات المحرك - انا الدراجة تمر اولا لانها ذاهبة الى الامام. الدراجة ذات المحرك تمر ثانيا لانها تنعطف الى اليسار لذلك يجب ان تعطي الاولورية للدراجة. انت اخيرا لان لديك علامة اعطاء الاسبقية للاخرين (اسنان القرش).

34 الدراجة - السيارة - انا السيارة وانت لديكما علامة منح الاسبقية للسائقين الاخرين. اذا الدراجة تمر اولا. السيارة تمر ثانيا لانها ذاهبة الى الامام وانت تريد الانعطاف الى اليسار.(السائق الذي ينعطف الى اليسار او الى اليمين يجب ان يعطي حق الاسبقية لجميع مستعملي الطريق الاخرين). اذا انت تمر اخيرا.

35 السيارة - الدراجة - انا الدراجة وانت لديكما علامة منح الاسبقية للسائقين الاخرين. اذا السيارة تمر اولا. الدراجة تمر ثانيا لانها ذاهبة الى الامام وانت تريد الانعطاف الى جهة اليسار. (قاعدة: السائق الذي ينعطف الى جهة اليسار او الى جهة اليمين يجب ان يعطي حق الاسبقية لجميع مستعملي الطريق).انت تمر اخيرا.

36 انا - السيارة - الدراجة انا امر اولا لان لدي علامة حق الاسبقية. الدراجة تمر ثالثا لان لديها علامة منح الاسبقية للسائقين الاخرين (اسنان القرش). اذا السيارة تمر ثانيا.

37 لا توجد علامة منح الاسبقية على طريق الدراجات (اسنان القرش). لذلك الدراجة يجب ان تتوقف وانت تتابع سيرك.

45 انا - السيارة - الدراجة 1 - الدراجة 2 الدراجة 1 والدراج 2 لديهما علامة اسنان القرش (اعطاء الاسبقية للاخرين). اذا انت تمر اولا لانك ذاهب الى الامام والسيارة الاخرى تنعطف (قاعدة: السائقين الذين يغيرون اتجاههم يجب عليهم اعطاء الاسبقية لجميع مستتخدمي الطريق الاخرين). السيارة تمر ثانيا. الدراجة رقم 1 تمر ثالثا لانها ذاهبة الى الامام بينما الدراجة رقم 2 تنعطف الى اليسار. (نفس القاعدة السابقة). الدراجة رقم 2 تمر رابعا.

46 الراجل - انا - الدراجة الراجل يمر اولا لان لدية منطقة عبورالمشاة. انا امر ثانيا لان لدي علامة حق الاسبقية الراجة ثالثا.

47 انا - الترام - الدراجة انت تمر اولا لان لديك علامة الاسبقية. يجب على سائق الترام اعطاء الاسبقية للسائقين المتواجدين على طريق حق الاسبقية. الترام ثانيا لانة متجة الى الامام والدراجة في حالة انعطاف. اذا الدراجة تمر اخيرا.

32 ماهو متوسط رد الفعل للسائق ؟

- 1 ثانية
- 2 ثانية

33 سائق يبلغ من العمر 20 سنة. ماهي النسبة القصوى المسموح بها من بروميل الكحول في الدم ؟

- 0.2 بروميل كحول
- 0.8 بروميل كحول

34 كم من الوقت يحتاج دم الانسان للتخلص من تاثير قدح واحد من البيرة او الواين ؟

- 30 دقيقة
- 60 دقيقة

35 تناولت الكثير من الحكول. ماهي الطريقة التي تستعيد بها وعيك بسرعة ؟

- من خلال تناول الكثير من القهوة
- لا توجد طريقة لاستعادة الوعي بسرعة

36 وقعت لك حادث. اتصلت لطلب المساعدة. كيف تحدد مكانك بدقة ؟

- الطريق السريع رقم A10. جهة اليسار من الطريق. العامود رقم 25,0
- الطريق السريع رقم A10

37 العمق الادنى لاخاديد الاطارات هو ؟

- 1.6 ملمتر
- 3.2 ملمتر

38 اي نوع من انواع الاطارات يقل فية خطر الانزلاق في المطر ؟

- الحجم الاعتيادي للاطار
- الحجم العريض للاطار

39 ماذا يجب ان تفعل عند حدوث انزلاق للسيارة بسبب الماء ؟

- الضغط على الفرامل
- رفع القدم عن دواسة الوقود

40 انت تقود السيارة في المطر. اي نوع من انوع الاطارات يقل فية خطر الانزلاق المائي ؟

- الاطارات العادية
- اطارات الشتاء

41 على اي اتجاة من الطريق توجد هذة العلامة الفسفورية الحمراء ؟

- على جهة اليمين
- على جهة اليسار

42 انت تقود على طريق سرعتة 50 كم في الساعة. ترغب في الانعطاف. متى يجب عليك اعطاء اشارة االاتجاة الضوئية ؟

- 50 متر قبل ملتقى الطرق
- 100 متر قبل ملتقى الطرق

43 ترغب في الخروج من الطريق السريع. متى يجب عليك اعطاء اشارة الاتجاة الضوئية ؟

- 100 قبل الخروج
- 300 متر قبل الخروج

44 الهواء في اطارات السيارة قليل. هل تستهلك السيارة وقود اكثر ؟

- نعم
- لا

45 الجسر يرتفع الى الاعلى. هل يجب عليك اطفاء محرك السيارة ؟

- نعم
- لا

46 ما هو الشئ الذي يؤثر على مسافة وقوف السيارة ؟

- سرعة ردة فعل السائق
- سرعة ردة فعل السائق وسرعة السيارة

47 ماذا تعرف حول السائقين الكبار في السن ؟

- ينتبهون الى الطريق جيدا
- سرعة ردة الفعل بطيئة والاستجابة قليلة

48 ترى هذة العلامات على الطريق السريع.
كم تبلغ المسافة بين الواحدة والاخرى ؟

- 50 متر
- 100 متر

49 على اي اتجاة من الطريق توجد هذة العلامة الفسفورية البيضاء ؟

- على جهة اليمين
- على جهة اليسار

50 هل مسموح لك التوقف على سكة القطار ؟

- نعم
- لا

51 تقود سيارتك بسرعة 100 كم في الساعة. ماهي المسافة التي يجب ان تتركها بينك وبين المركبة التي امامك ؟

- 55 متر
- 100 متر

52 يجب عليك اعطاء الاسبقية للسائقين.
هل مسموح لك الوقوف هنا ؟

- نعم
- لا

53 استأجرت عربة للنقل وزنها 450 كم. اي نوع من لوحات رقم السيارة يجب ان تضعة عليها ؟

1

2

- 1
- 2

54 متى تفقد السيطرة على السيارة ؟

- عند التعب الشديداو تناول الكحول
- عند السياقة في المساء

55 لديك اجازة السوق لمدة اكثر من خمسة سنوات. كم ملغرام من الكحول مسموح تواجدها في دمك ليحق لك السياقة ؟

- 220 مايكرو غرام
- 300 مايكرو غرام

56 خرجت من الحفلة وقد تناولت الكحول. هل يحق لك سياقة السيارة ؟

- نعم
- لا

57 ماهو الدواء الذي يقلل من قدرتك على السياقة ؟

- جميع الادوية تؤثر على السياقة
- الدواء الذي يحتوي على لاصق اصفر او احمر على الغلاف

58 متى تصبح لديك الرؤية غير جيدة ؟



- عند تناول الكحول والمخدرات
- في المنحنيات

59 حصل حادث تصادم بعد تناولك الكحول. هل يمكن لشركة التامين ان تطالبك بدفع قيمة الاضرار الناتجة عن الحادث ؟

- نعم
- لا

60 البيرة والجن تحتوي على الكحول. هل زجاجة البيرة تعادل قدح الجن من ناحية نسبة الكحول ؟

- نعم
- لا

61 الحمولة خارجة خلف السيارة بمسافة 150 سم. هل يسمح لك القيادة هكذا ؟

- نعم
- لا

62 كم هية المسافة المسموح التوقف او الوقوف بها قبل وبعد منطقة عبور المشاة ؟

63 بعد كم متر تاتي سكة عبور القطار ؟

64 عند اي سرعة لدوران المحرك تستعمل السيارة وقود اكثر ؟

- عند دوران المحرك بسرعة عالية
- عند دوران المحرك بسرعة منخفضة

---

65 ماذا تعني هذة العلامة ؟

- مكان مخصص لوقوف السيارات ومواصلة السفر بواسطة وسائل النقل العام
- مكان مخصص لوقوف السيارات

---

66 ماهي وسائل النقل المسموح لك قيادتها برخصة السياقة نوع ب ؟

- حافلة لنقل الاشخاص على ان لا يتعدى عددهم 9 اشخاص مع السائق
- حافلة لنقل الاشخاص الحد الاقصى 5 اشخاص مع السائق

---

67 في اي طريق مسموح لك السياقة بسرعة 100 كم في الساعة ؟



- طريق رقم 1
- طريق رقم 2

68 توقفت هنا بسبب عطل في سيارتك. هل وضعت مثلث التحذير في المكان المناسب ؟

- نعم
- لا

---

69 هل مسموح لك السياقة هكذا ؟

- نعم
- لا

---

70 على اي طريق مسموح لك السياقة بسرعة 80 كم في الساعة ؟



- طريق رقم 1
- طريق رقم 2

---

71 متى يجب عليك انارة الضوء العادي للسيارة ؟

- عند غروب الشمس
- عند شروق الشمس

72 ماهي انواع رخصة القيادة في هولندا ؟

- A - B - C
- A - B - C - D - E - AM

73 ماهي المسافة المسموح بها كحد اقصى بينك وبين المركبة التي تسحبها خلفك ؟

- 10 متر
- 5 متر

74 اين مسموح لهذة المركبة (البروم موبيل) القيادة على الطريق ؟

- داخل المدينة
- داخل المدينة وخارج المدينة

75 هل من الامان وضع هذة المطرقة في السيارة ؟

- نعم
- لا

76 هنالك شخص فاقد للوعي ملقى على الطريق. ماهو افضل وضع تضعة به لتساعد هذا الشخص على التنفس ؟

- وضع المصاب ملقى على ظهرة
- وضع المصاب ملقى على احدى جوانبة

77 ماذا تعني هذة العلامة ؟

- درجة حرارة المحرك مرتفعة
- درجة حرارة الطقس مرتفعة

78 هل هنالك فرق بين الاضوية الصفراء والاضوية الحمراء في لوحة اضوية السيارة ؟

- نعم
- لا

79 الساعة الان هية 13:00 . هل مسموح لك السياقة هكذا ؟



- نعم
- لا

اجوبة وشرح الفصل العاشر

1 لا لا يسمح لك بسياقة السيارة اذا كان المنبة عاطلا.

2 الراكب اذا كان عمر الراكب اكثر من 12 عام يكون مسؤولا عن نفسة.

3 لا المكابح اليدوية يجب ان تكون بحالة جيدة عند سياقة السيارة.

4 لا لا يسمح لك بالسياقة اذا كان عداد السرعة عاطلا.

5 لا اجازة السياقة يجب ان تكون مقروئة بشكل جيد. وكذلك لا يسمح لك ان تكون نسخة غير اصلية.

6 للسائق وجميع الراكبين مسند الراس مهم لجميع الراكبين فهم يساعد على تقليل الخطر اصابة الرأس في حوادث المرور. يجب ضبطة على مستوى الرأس جيدا.

7 لا غير مسموح لك السياقة اذا كانت لوحة ارقام السيارة غير مقروئة. يجب تنظيفها من الثلج او الوسخ مثلا او ابدالها اذا كانت الارقام غير واضحة.

8 لا لا يسمح لك باستعمال منبة السيارة او الاضوية المتقطعة الا في حالات الظرورة لمنع خطر قائم.

9 لا لا يسمح لك بالسياقة اذا كانت **يدك** او **قدمك** معطوبة ولا تستطيع استعمالها. ان ذلك غير امن لك وللسائقين الاخرين.

10 - 2 ثانية اذا كان الطقس جيدا يجب ترك مسافة 2 ثانية بينك وبين المركبة التي امامك. اما اذا كان الطقس سيئ والرؤيا غير واضحة فيجب عليك ان تزيد من السافة التي بينك وبين السائق الذي امامك.

11 - 130 كم في الساعة هذة العلامة الحمراء هية رقم الطريق السريع (دائما يكون لونها احمر). اذا السرعة القصوى على الطريق السريع هية 130 كم في الساعة.

12 نعم الحمولة فوق السيارة تزيد من استهلاك الوقود. كذلك الحمولة الزائدة للسيارة تزيد من استهلاك الوقود للسيارة.

13 نعم كلما زادت حمولة السيارة من امتعة او ركاب زاد استهلاك السيارة للوقود.

14 نعم تستهلك السيارة وقود اكثر عند استعمال مكيف السيارة وذلك بسبب بذل محرك السيارة جهد اكبر لتشغيل منظومة مكيف الهواء.

15 الاطفال يقطعون الطريق بشكل مفاجئ انتبة للاطفال دائما عند القيادة وخاصتا في الاحياء السكنية حيث لا يمكن تقدير رد فعل الاطفال. يجب السير بحذر.

16 السياقة بسرعة المشاة والتوقف عند الظرورة يجب الانتباة للاطفال دائما وخصوصا عند السياقة في الحي السكني. يجب ان تكون السياقة بسرعة المشاة اي 15 كم في الساعة او اقل حسب الموقف وان تطلب الامر يجب التوقف تماما عن السير حتى يكون الطريق امنا.

17 لا الاطفال الذين يقل طولهم عن 135 سم يجب عليهم استعمال وسيلة السلامة (الكرسي المرتفع) وذلك لضبط قياس حزام الامان بشكل جيد.

18 نعم يجب على جميع الركاب استعمال حزام الامان كذلك الركاب في المقعد الخلفي.

19 نعم السائق مسؤول عن الاطفال حتى سن 12 عام.

20 لا الجلوس هكذا خطير جدا. الاطفال الذي يقل طولهم عن 135 سم يجب ان يستعملوا وسيلة السلامة (الكرسي المرتفع).

21 المقعد يحتوي على الوسادة الهوائية هذة العلامة تعني ان المقعد يحتوي على الوسادة الهوائية (اير باك). لذا يجب اجلاس الاطفال بشكل طبيعي. اما اذا كان وزن الطفل اقل من 13 كيلو غرام يجب اجلاسة بشكل معاكس اي ان يكون ظهر الطفل الى الامام ووجة الطفل متجة اتجاة الكرسي في هذة الحالة فيجب عليك اطفاء الوسادة الهوائية.

22 الشاحنة تسحب خلفها عربة هذة العلامة الصفراء ذات الاطار الاحمر توضع على الشاحنات التي تسحب خلفها عربة لنقل البضائع.

23 مواد خطيرة الشاحنات التي تحمل مواد خطيرة لديها لوحة برتقالية اللون يكتب عليها رقم خاص لكل مادة من المواد الخطرة التي يتم نقلها.

24 - 20 سم يسمح بخروج الحمولةخارج السيارة ب 20 سم لكل طرف على الاكثر.

25 نعم يسمح لك باخراج الحمولة خارج السيارة من جهة الامام او الخلف بمسافة متر واحد كحد اقصى. اذا زادت الحمولة الخارجة عن المتر الواحد يجب عليك ان تضع العلامة التحذيرية.

26 نعم يجب استعمال اللوحة التنبيهية اذا خرجت الحمولة بمسافة اكثر من متر واحد من العربة. وهذة الحمولة يجب ان لا يتعدى طولها على 5 امتار.

27 نعم لقد استعملت العلامة التنبيهية وهذا جيد. لكن انتبة الى لوحة ارقام السيارة حيث يجب ان تكون دائما واضحة وغير مخفية. انتبة ايضا لا يحق لك استعمال اي علامة تحذيرية غير العلامة الاصلية الموجودة في الصورة ذات اللون الاحمر والابيض (المقلم). اي الوان اخرى غير مسموح بها.

28 لا يجب استعمال علامة التنبية اذا كانت الحمولة الخارجة باكثر من متر واحد خارج العربة.

29 نعم يحق لك سحب عربة على ان لا تتجاوز ال 750 كيلو غرام بحمولتها برخصة القيادة نوع (ب). يحق لك ايضا سحب عربة اثقل على ان لا يتجاوز وزنها مع الحمل اكثر من وزن سيارتك. وبكل الاحوال يجب ان لا يتعدى وزن العربة والحمولة مع سيارتك وزن ال 3500 كيلو غرام.

30 عدم تحريك السائق من مكانة عند حدوث الم في العنق نتيجة الحادث عليك بتجنب اي حركة للمصاب عدم تحريكة من مكانة.

31 تقريبا 90 بالمئة حوالي 90 من الحوادث يتسبب بها الانسان والباقي تكون بسبب عوامل اخرى مثل العوامل الطبيعية او متانة السيارة الخ.

32 - 1 ثانية ان متوسط رد فعل الانسان يكون 1 ثانية تقريبا. تختلف النسبة من شخص لاخر.

33 - 0.2 بروميل كحول ان نسبة الكحول المسموح بها خلال السنوات الخمسة الاولى بعد حصولك على رخصة القيادة هي 0.2. بعد ذلك تصبح 0.5.

34 - 60 دقيقة يحتاج جسم الانسان للتخلص من قدح واحد من الكحول ساعة واحدة تقريبا.

35 لا توجد طريقة لاستعادة الوعي بسرعة ان شرب المنبهات لا تساعد على التخلص من اثر الكحول في جسم الانسان.

36 الطريق السريع رقم A10. جهة اليسار من الطريق. العامود رقم 25,0 ان هذة العلامات وضعت لتحديد موقعك على الطريق السريع. المسافة بين الواحدة والاخرى هية 100 متر

37 - 1.6 ملمتر عمق اخاديد الاطارات للسيارة يجب ان يكون 1.6 ملمتر كحد ادني. ويفضل استبدال الاطارات عند حد 2.0 ملمتر.

38 الحجم العريض للاطار الحجم العريض للاطارات يساعد اكثر السيارة على عدم الانزلاق بسبب الامطار.

39 رفع القدم عن دواسة الوقود عند حدوث الانزلاق المائي لاتضغط على المكابح (الفرامل) او دواسة الوقود ابدا. ان ذلك يؤدي الى مزيد من الانزلاق.

40 اطارات الشتاء الانزلاق المائي يحدث بسبب طبقة رقيقة من الماء على الطريق. ان اطارات الشتاء تكون عريضة وكذلك عمق الاخاديد فيها اكثر مما يساعد على التخلص من الماء بسهولة. وبهذا يكون اتصال الاطار مع الارض افضل. ينصح باستعمال اطارات الشتاء في فصل الشتاء لتقليل الانزلاق بسبب الثلوج ايضا.

41 على جهة اليمين اللون الابيض من هذة العلامات الفسفورية موجود على جهة اليسار من الطريق واللون الاحمر موجود على جهة اليمين من الطريق.

42 - 100 متر قبل ملتقى الطرق ان اعطاء اشارة الاتجاة الضوئية في الوقت المناسب يساعد على انسيابية السير. لذلك يجب استعمالها في الوقت المناسب.

43 - 300 قبل خانة الخروج يجب عليك اعطاء اشارة الاتجاة الضوئية قبل الوصول الى خانة الخروج بمسافة 300 متر. واطفائها يجب ان يكون عند اخر مربع ابيض على خانة الخروج.

44 نعم اذا كان الهواء الموجود في الاطارات قليل فسوف تستهلك السيارة وقود اكثر عند السير وكذلك سوف يستهلك الاطار بسرعة اكبر من الوضع الاعتيادي. لذلك يجب تفحص الاطارات بشكل منتظم.

45 نعم اذا كنت تقف لفترة طويلة يجب عليك اطفاء محرك السيارة (مثلا عند انتظار مرور القطار او ارتفاع جسر او لاي سبب اخر). بهذة الطريقة تستهلك وقود اقل وكذلك تحافظ على البيئة من التلوث.

46 سرعة ردة فعل السائق وسرعة السيارة ان سرعة ردة فعل السائق وكذلك سرعة السيارة لهما الاثر الكبير على المسافة التي تقطعها السيارة لغاية الوقوف الكامل. كلما كانت سرعة السيارة عالية تحتاج الى مسافة اكثر للتوقف الكامل.

47 سرعة ردة الفعل بطيئة والاستجابة قليلة السائقين الكبار في السن 65+ يكون رد الفعل لديهم بطيئ نسبيا. لذلك يجب الانتباة لهم عند السياقة على الطرقات وتوخي الحذر.

48 - 100 متر توضع هذة العلامات على الطرق لتحديد الموقع. ان المسافة بين الواحد والاخرى هي 100 متر. يكتب عليها اسم الطريق الاتجاة الذي انت فية يسار او يمين وكذلك رقم الطريق اذا كنت على الطريق السريع.

49 على جهة اليسار اللون الابيض من هذة العلامات الفسفورية موجود على جهة اليسار من الطريق واللون الاحمر موجود على جهة اليمين من الطريق.

50 لا يمنع منعا باتا الوقوف على سكة القطار مهما كانت الاسباب. ان في ذلك خطر شديد. لذلك يجب توخي الحذر.

51 - 55 متر السرعة مقسومة على 2 زائد 10 بالمئة (100÷ 2= 50 + 10٪ = 55).

52 لا الوقوف هنا يعرقل مستعملي طريق الدراجات. احيانا مسموح لك الوقوف على طريق الدراجات او تخطي علامة اسنان القرش اذا كانت الرؤية غير جيدة بالنسبة لجهة اليمين او اليسار.

53 - 2 العربة التي لا يزيد وزنها عن 750 كم يكون لون لوحة الارقام فيها ابيض على ان يحمل نفس ارقام لوحة السيارة التي تسحب العربة. اما العربات التي يزيد وزنها على 750 كيلو غرام فيجب ان تحمل اللوحة الصفراء مسجل عليها نفس ارقام السيارة التي تسحبها.

54 عند التعب الشديد او تناول الكحول اذا كان التعب شديد او كان السائق تحت تاثير الكحول فان ردة الفعل تكون بطيئة قياسا للحالات الاعتيادية. كذلك لا يمكنك من اتخاذ القرار الصحيح في بعض الحالات بسبب ضعف التركيز. لذلك تكون سياقة السيارة بهذة الحالة خطرة عليك وعلى مستعملي الطريق الاخرين.

55 - 220 مايكرو غرام الحد الاقصى هو 220 مايكرو غرام اذا زادت النسبة عن ذلك لا يحق لك السياقة.

56 لا لا يحق لك السياقة تحت تاثير الكحول ابدا.

57 الدواء الذي يحتوي على لاصق اصفر او احمر على الغلاف بعض الادوية لها تاثير على السياقة. على غلاف هذة الادوية هنالك تحذير مكتوب فية (هذا الدواء لة تاثير على سلبي على قيادة المركبات) او (هذا الدواء لة القدرة على تقليل رد الفعل) ويكون هذا الملصق باللون الاصفر او الاحمر.

58 عند تناول الكحول والمخدرات الكحول والمخدرات جدا خطرة. تجعل السائق يفقد السيطرة على القيادة. كذلك الرؤيا تكون غير واضحة.

59 نعم في القانون يعاقب كل من يقود السيارة تحت تاثير الكحول او المخدر. لذلك يحق لشركات التامين ان تجبر السائق في هذة الحالة على دفع تعويضات الحادث.

60 نعم نسبة الكحول في البيرة تساوي 5٪ ونسبة الكحول في الجن تساوي 35٪. لكن بما انة قدح البيرة اكبر من قدح الجن تكون نسبة الكحول متساوية بينهما.

61 لا العلامة التي وضعتها خلف الحمولة الخارجة من السيارة غير مسموح بها. لا يسمح لك باستعمال اي لون عد العلامة المسموح بها ذات اللون الابيض والاحمر (الابيض والاحمر المقلم).

62 5 امتار يسمح لك في الوقوف او التوقف بعد او قبل منطقة عبور المشاة ابتداء من 5 امتار فاكثر.

63 160 متر كل خط احمر يساوي 80 متر.

64 عند دوران المحرك بسرعة عالية عند تغيير علبة السرعة في الوقت المناسب الى سرعة اعلى او اقل تستهلك السيارة وقود اقل. وكذلك تحافظ على البيئة من التلوث.

65 مكان مخصص لوقوف السيارات ومواصلة السفر بواسطة النقل العام. تقع ساحات التوقف التي تحتوي على هذة العلامة بالقرب من محطات القطار او محطات حافلات نقل الركاب.

66 حافلة لنقل الاشخاص على ان لا يتعدى عددهم 9 اشخاص مع السائق كذلك بامكانك برخصة السياقة نوع ب من سياقة شاحنة على ان لا يزيد وزنها على 3500 كغم.

67 طريق رقم 1 الطريق الذي يحتوي على لون اخضر في المنتصف تكون السرعة القصوى فية 100 كم في الساعة. الطريق رقم 2 الذي يحتوي على خطين في المنتصف تكون السرعة فية 80 كم في الساعة.

68 نعم من الافضل عدم التوقف في المنحنى لانك سوف لا تكون واضح للعيان بالنسبة للسائقين الاخرين. لكن اذا حدث ذلك يجب عليك وضع مثلث التحذير قبل المنحنى مثل ماهو موجود في الصور لتحذير السائقين الاخرين. ويجب ان يكون مثلث التحذير يبعد عن السيارة مسافة لاتقل عن 30 متر .

69 لا ان السياقة بهذا الشكل ليس امنا. كذلك غير مسموح لك السياقة والثلج يغطي نوافذ السيارة. يجب تنظيف الزجاج وكذلك اضوية السيارة من جميع الجهات وكذلك لوحة ارقام السيارة يجب ان تكون واضح للعيان.

70 الطريق رقم 1 ان السرعة القصوى على الطريق رقم 2 هية 60 كم في الساعة بينما السرعة القصوى على الطريق ذو الشريط الاخضر في المنتصف هية 100 كم في الساعة. اذا يحق لك هنا السياقة بسرعة اقل على الطريق رقم 1.

71 عند غروب الشمس يجب عليك انارة ضوء المدينة (ديم ليخت) عن غروب الشمس. اي عندما تصبح الشمس خلف.

72 A - B - C - D - E - AM (A = رخصة قيادة الدراجة النارية). (B = رخصة قيادة السيارات العادية كذلك المركبات التي لا يتجاوز وزنها ال 3500 كيلو غرام. كذلك يسمح لك بسياقة حافلة مكونة من 8 اشخاص عدا السائق او 9 اشخاص مع السائق كحد اقصى. كما يسمح لك بسحب عربة خلف سيارتك على ان لا يزيد وزنها عن 750 كيلو غرام). (C = رخصة قيادة الشاحنات الكبيرة التي يزيد وزنها عن 3600 كيلو غرام). (D = رخصة قيادة حافلات نقل الركاب الكبيرة التي يزيد عدد راكبيها عن 8 اشخاص بدون السائق). (E = رخصة سحب عربة كبيرة وزنها اكثر من 750 كيلو غرام. اذا كنت تمتلك احد الرخص التالية B - C - D فان رخصة E تخولك بسحب عربة كبيرة وزنها اكثر من 750 كيلو غرام). (AM رخصة قيادة تسمح لك بسياقة الدراجات ذات المحرك [بروم فيتس - سنور فيتس - بروم سكوتر - بروم موبيل - بروم باك فيتس).

73 5 متر عند سحب مركبة خلفك لا يجوز تجاوز مسافة ال 5 متر بين السيارتين. كما يجب على الشخص الذي يجلس في السيارة المسحوبة ان يمتلك رخصة القيادة.

74 داخل المدينة وخارج المدينة السرعة القصوى للبروم موبيل هية 45 كيلو متر في الساعة. اذا يحق لها السير على الطريق داخل المدينة حيث السرعة القصوى هي 50 كيلو متر في الساعة. كما يحق لها السير خارج المدينة على الطريق لان السرعة الدنيا المسموح بها خارج المدينة هي 40 كم في الساعة.

75 نعم هذة المطرقة تسمى مطرقة الامان. يفضل وضعها يمين السائق وتستعمل لكسر زجاج السيارة الجانبي لسهولة كسرة للخروج من السيارة عند وقوع الحوادث. كما يفضل الطرق على زوايا الزجاج الجانبية للسيارة وليس في منتصفها منعا لتناثر شظايا الزجاج.

76 وضع المصاب ملقى على احدى جوانبة هذا الوضع يساعد المصاب على التنفس افضل من وضعة على ظهرة او بطنة. في هذة الاوضاع ربما يواجه المصاب خطر الاختناق.

77 درجة حرارة المحرك مرتفعة عندما ترى هذة العلامة في اللوحة التي امامك يجب عليك التوقف واطفاء محرك السيارة. ومعالجة الموقف عن طريق فحص مادة تبريد المحرك. فربما تكون هذة المادة قليلة.

78 نعم الاضوية الصفراء تحذر من خلل في السيارة وهي ليست خطرة جدا. في الامكان متابعة السير واصلاح الخلل في اقرب وقت. اما الاضوية الحمراء فتحذر من خلل في السيارة خطير. لذلك يجب التوقف ومعالجة الخلل. ماعدا الضوء الاحمر للبطارية اذ يمكنك من متابعة الطريق واصلاحة فيما بعد.

79 لا الضوء الازرق يعني انك تستعمل الضوء العالي وهذا غير مسموح في النهار ابدا.

الفصل العاشر

قوانين مختلفة اخرى

1 منبة السيارة لا يعمل. هل مسموح لك السياقة هكذا ؟

- نعم
- لا

2 الراكب لا يضع حزام الامان. من المسؤول هنا ؟

- السائق
- الراكب

3 المكبح اليدوي معطل. هل مسموح لك السياقة هكذا ؟

- نعم
- لا

4 عداد السرعة عاطل. هل مسموح لك السياقة هكذا ؟

- نعم
- لا



5 اجازة السوق الخاصة بك غير مقروئة بشكل واضح. هل مسموح لك السياقة هكذا ؟

- نعم
- لا

6 لمن هو مهم ضبط مسند الرأس على الوجة الصحيح ؟

- للسائق فقط
- للسائق وجميع الراكبين

7 لوحة ارقام السيارة غير واضحة. هل مسموح لك السياقة هكذا ؟

- نعم
- لا

8 هل مسموح لك استعمال منبة السيارة او الاضوية المتقطعة من غير سبب ظرورية جدا ؟

- نعم
- لا

9 لا تستطيع استعمال يدك بسبب عطب فيها.
هل مسموح لك السياقة هكذا ؟

- نعم
- لا

10 تقود سيارتك بسرعة 120 كم في الساعة. كم المسافة التي يجب ان تتركها بينك وبين المركبة التي امامك ؟

- 1 ثانية
- 2 ثانية

11 كم السرعة القصوى المسوح بها هنا ؟

- 120 كم في الساعة
- 130 كم في الساعة

12 تضع فوق السيارة صندوق الامتعة. هل ستهلك السيارة وقود اكثر في هذة الحالة ؟

- نعم
- لا

13 تحمل معك في السيارة امتعة سفر كثيرة.
هل تستهلك السيارة وقود اكثر في هذة الحالة ؟

- نعم
- لا

14 هل تستهلك السيارة وقود اكثر عند استعمالك مكيف الهواء في السيارة ؟

- نعم
- لا

15 عندما ترى اطفال على الطريق الى ماذا يجب ان تنتبة ؟

- الاطفال يقطعون الطريق بشكل مفاجئ
- الاطفال يعرفون جيدا قواعد المرور

16 ما هي السرعة التي يجب ان تقود السيارة بها هنا ؟

- 25 كم في الساعة والتوقف عند الظرورة
- السياقة بسرعة المشاة والتوقف عند الظرورة

17 الطفل الذي يجلس في المقعد الامامي طولة 130 سم هل هذا مسموح ؟

- نعم
- لا



18 الطفل الذي يجلس بجانبك طولة 136 سم. هل يجب علية استعمال حزام الامان ؟

- نعم
- لا

19 الطفل الذي يجلس بجانبك عمرة 8 سنوات ويستعمل كرسي السلامة. هل انت مسؤول عنة ؟

- نعم
- لا

20 يجلس هذا الطفل في المقعد الخلفي بدون كرسي السلامة. هل مسموح لك السياقة هكذا ؟

- نعم
- لا

21 ترى هذة العلامة قرب مقعد الجلوس. ماذا يعني هذا ؟

- المقعد يحتوي على الوسادة الهوائية
- الوسادة الهوائية تعمل بشكل جيد

22 ماذا تعني هذة العلامة الحمراء والصفراء على الشاحنة ؟

- الشاحنة تسحب خلفها عربة
- الشاحنة بدون عربة

23 توجد على هذة الشاحنة لوحة برتقالية اللون. ماذا تحمل هذة الشاحنة ؟

- مواد خطيرة
- مواد غير خطيرة

24 ماهي المسافة المسموح بها لخروج الحمولة على جانبي السيارة ؟

- 10 سم
- 20 سم

25 الحمولة خارجة خلف السيارة بمسافة 50 سم. هل مسموح لك السياقة هكذا ؟

- نعم
- لا

26 تقود السيارة مع عربة نقل وفيها حمولة خارجة خلف العربة بمسافة 2 متر. هل مسموح لك القيادة هكذا ؟

- نعم
- لا

27 الحمولة خارجة خلف السيارة بمسافة 150 سم. هل يسمح لك القيادة هكذا ؟

- نعم
- لا

28 تقود السيارة مع عربة نقل وفيها حمولة خارجة خلف العربة بمسافة 140 سم. هل مسموح لك القيادة هكذا ؟

- نعم
- لا

29 العربة التي تسحبها خلفك وزنها مع قدرتها على التحميل 750 كيلو غرام. لديك رخصة سياقة نوع (ب) فقط. هل مسموح لك السياقة هكذا ؟

- نعم
- لا

30 بعد وقوع حادث تصادم اصبح السائق يعاني من الم حاد في عنقة. ماذا تفعل ؟

- عدم تحريك السائق من مكانة
- اخراج السائق من السيارة واجلاسة على الارض

31 ماهي النسبة المئوية التي يكون فيها الانسان هو السبب في الحوادث ؟

- تقريبا 90 بالمئة
- تقريبا 20 بالمئة

التعرف على الخطر

ان هذة التمارين تساعدك على القيادة الامنة على الطريق من خلال التعرف على الاخطار المختلفة التي من الممكن ان تصادفك وكيفية التعامل معها لتزيدك خبرة ومهارة في القيادة.
ان الاوضاع كثير ومتعددة ليس بلامكان حصرها في عدد محدد ولكن سوف نورد قدر الامكان اهم العوامل التي يجب اخذها في الاعتبار والتي سوف تساعدك على التعرف على الخطر المحتمل وقوعة على الطريق.
في هذة التمارين هنالك ثلاثة اختيارات وهي:

A اضغط على الفرامل
B رفع القدم عن دواسة الوقود
C لاشئ

للحصول على الاجابة الصحيحة يجب عليك مراعات نقاط مهمة في تحليلك للوضع الذي امامك على الصورة ويجب التركيز على النقاط المهمة التالية:
1- السرعة التي تسير بها
2-المكان الذي تتواجد فية (داخل المدينة او خارج المدينة على الطريق السريع او على طريق السيارات).
3- العلامات المرورية (كذلك العلامات التي على الارض).
4- مستعملي الطريق (سائقين او مشاة).

الاختيار الاول
الضغط على الفرامل
نختار خيار الضغط على الفرامل في الحالات التالية

اذا كان هنالك خطر مباشر يتطلب منك تخفيف السرعة بشكل سريع او التوقف تماما
سوف يحصل شئ اذا لم تضغط على المكابح
عندما تكون الاحوال الجوية سيئة
عندما تكون حالة الطريق سيئة
عند الاقتراب من مستخدمي الطريق الاضعف او الغير مستقرين
عند الاقتراب من اعمال الشغل على الطريق او عوائق على الطريق
عندما الاقتراب من تقاطع الطرق الخطرة او بالقرب من المدارس او الاقتراب من الاطفال
عندما تكون السرعة عالية والرؤيا غير واضحة
عند الاقتراب من المنحنيات الغير واضحة والمنحنيات الحادة
عند السياقة على الطرق الضيقة
عند الاختلاف الكبير في السرعة بينك وبين السائقين الاخرين
عند تجاوز السائقين وهنالك مستعملين للطريق قادمين من الجهة المقابلة
عند اقتراب مستعملي الطريق على الطرق الضيق

1 ماذا تفعل ؟

- الضغط على الفرامل
- رفع القدم عن دواسة الوقود
- لاشئ

2 ماذا تفعل ؟

- الضغط على الفرامل
- رفع القدم عن دواسة الوقود
- لاشئ

3 ماذا تفعل ؟

- الضغط على الفرامل
- رفع القدم عن دواسة الوقود
- لاشئ

4 ماذا تفعل ؟

- الضغط على الفرامل
- رفع القدم عن دواسة الوقود
- لاشئ

5 ماذا تفعل ؟

- الضغط على الفرامل
- رفع القدم عن دواسة الوقود
- لاشئ

6 ماذا تفعل ؟

- الضغط على الفرامل
- رفع القدم عن دواسة الوقود
- لاشئ

7 ماذا تفعل ؟

- الضغط على الفرامل
- رفع القدم عن دواسة الوقود
- لاشئ

8 ماذا تفعل ؟



- الضغط على الفرامل
- رفع القدم عن دواسة الوقود
- لاشئ

9 ماذا تفعل ؟



- الضغط على الفرامل
- رفع القدم عن دواسة الوقود
- لاشئ

10 ماذا تفعل ؟



- الضغط على الفرامل
- رفع القدم عن دواسة الوقود
- لاشئ

الاختيار الثاني
رفع القدم عن دواسة الوقود
نختار خيار رفع القدم عن دواسة الوقود في الحالات التالية

اذا لم يكن هنالك خطر فوري او مباشر
وضع يحتاج الى انتباة وملاحظة
الانتباة والحذر من تصرف غير متوقف لمستعملي الطريق
اذا كنت لاتثق في الوضع الموجود امامك

11 ماذا تفعل ؟



- الضغط على الفرامل
- رفع القدم عن دواسة الوقود
- لاشئ

12 ماذا تفعل ؟

- الضغط على الفرامل
- رفع القدم عن دواسة الوقود
- لاشئ



13 ماذا تفعل ؟

- الضغط على الفرامل
- رفع القدم عن دواسة الوقود
- لاشئ

14 ماذا تفعل ؟

- الضغط على الفرامل
- رفع القدم عن دواسة الوقود
- لاشئ

15 ماذا تفعل ؟

- الضغط على الفرامل
- رفع القدم عن دواسة الوقود
- لاشئ

16 ماذا تفعل ؟

- الضغط على الفرامل
- رفع القدم عن دواسة الوقود
- لاشئ



17 ماذا تفعل ؟

- الضغط على الفرامل
- رفع القدم عن دواسة الوقود
- لاشئ

18 ماذا تفعل ؟

- الضغط على الفرامل
- رفع القدم عن دواسة الوقود
- لاشئ

19 ماذا تفعل ؟

- الضغط على الفرامل
- رفع القدم عن دواسة الوقود
- لاشئ

20 ماذا تفعل ؟

- الضغط على الفرامل
- رفع القدم عن دواسة الوقود
- لاشئ

الاختيار الثالث
لاشئ
نختار خيار لاشئ في الحالات التالية

اذا كان المشهد امامك واضحا
اذا كانت السرعة قريبة بينك وبين السائقين الاخرين
اذا لم يكن هنالك خطر مباشر
اذا كانت المسافة بينك وبين الاخرين كافية

21 ماذا تفعل ؟

- الضغط على الفرامل
- رفع القدم عن دواسة الوقود
- لاشئ

22 ماذا تفعل ؟

- الضغط على الفرامل
- رفع القدم عن دواسة الوقود
- لاشئ



23 ماذا تفعل ؟

- الضغط على الفرامل
- رفع القدم عن دواسة الوقود
- لاشئ

---

24 ماذا تفعل ؟

- الضغط على الفرامل
- رفع القدم عن دواسة الوقود
- لاشئ

---

25 ماذا تفعل ؟

- الضغط على الفرامل
- رفع القدم عن دواسة الوقود
- لاشئ

اجوبة وشرح التعرف على الخطر (1)

1 **الضغط على الفرامل** ترى امامك سائقين دراجات هوائية وهنالك ايضا في الاتجاة المقابل سيارة قادمة لذلك لايمكن لك تجاوز الدراجات الهوائية حيث ان المسافة لاتكفي. اذا يجب عليك تقليل سرعتك بسرعة لتتناسب مع سرعة الدراجات الهوائية لتبقى تقود خلفها. انتبة ايضا يجب عليك ترك مسافة كافية خلف الدراجات لا تقل عن 10 متر للامان.

2 **الضغط على الفرامل** ترى امامك شاحنة ترغب في الذهاب الى الخانة اليمين. يجب عليك اعطائها المجال لذلك. وكذلك يجب عليك ترك مسافة كافية بينك وبين الشاحنة للامان. لذلك يجب عليك الضغط على الفرامل لتقليل سرعتك. علما ان سرعة الشاحنة القصوى على الطريق السريع هية 90 كم في الساعة.

3 **الضغط على الفرامل** انت ترى ان السائق الذي امامك قد ضغط على الفرامل. لذلك يجب عليك انت ايضا الضغط على الفرامل للمحافظة على مسافة الامان بينك وبينة.

4 **الضغط على الفرامل** السيارات التي امامك تسير بسرعة بطيئة بسبب الازدحام. لذلك يجب عليك الضغط على الفرامل للتقليل من سرعتك بسرعة. اذا تطلبت الظرورة عليك ان تستعمل اضوية التنبية الاربعة لتنبية السائقين القادمين من خلفك بان هنالك ازدحام شديد قد نشئ.

5 **الضغط على الفرامل** الطريق امامك ضيق وهنالك سائق قادم في المقابل. انت تقود بسرعة 50 كم في الساعة وهذة سرعة عالية لمثل هذا الوضع. حيث انك لا تستطيع السيطرة على السيارة في مثل هذا الطريق الضيق. لذلك يجب عليك التقليل من سرعتك قدر الامكان لتتناسب مع حجم الطريق. احيانا تضطر الى التوقف تماما اذا كانت السيارة المقابلة كبيرة او تقود بسرعة عالية.

6 **الضغط على الفرامل** ان تصرفات الاطفال لا يمكن التنبؤ بها. لكن عندما ترى كرة على الطريق يجب التنبؤ ان هنالك بالتاكيد طفل يركض ورائها بدون انتباة. ذلك يجب عليك دائما الضغط على الفرامل والتوقف حتى يتبين الامر.

7 **الضغط على الفرامل** يجب عليك اجتياز حافلة نقل الركاب ببطئ وذلك لاحتمال وجود ركاب غير منتبهين يرغبون في العبور من امام الحافلة. مع سرعة 50 كم في الساعة لاتستطيع التدخل بشكل امن لتدارك الموقف. لذلك يجب عليك تقليل السرعة بالضغط على الفرامل لتفادي الخطر المحتمل.

8 الضغط على الفرامل يجب عليك الضغط على الفرامل لغاية الوقوف وذلك لاعطاء الاولوية للسيارة القادمة في الاتجاة المقابل. من الافضل عند الوقوف ان تدع مسافة بينك وين الشاحنة وذلك لسهولة الانطلاق مرة ثانية بعد مرور السيارة المقابلة.

9 الضغط على الفرامل يجب عليك التقليل من سرعتك لتتناسب مع المطب الصناعي الذي امامك.
ملاحظة : اذا رفعت رجلك عن الوقود فقط فسوف لا تهبط سرعتك الى السرعة المناسبة بسرعة خصوصا ان المطب الصناعي قريب منك وانت تقود بسرعة 60 كم في الساعة.

10 الضغط على الفرامل يجب عليك التقليل من سرعتك لتتناسب مع المنعطف الذي امامك لتستطيع ان تقود عبر المنعطف بامان.
ملاحظة : اذا رفعت رجلك عن الوقود فقط فسوف لا تهبط سرعتك الى السرعة المناسبة بسرعة خصوصا ان المنحنى قريب منك وانت تقود بسرعة 60 كم في الساعة.

11 رفع القدم عن دواسة الوقود ان من الامان اجتياز سائق الدراجة الهوائية القادم من جهة الامام بسرعة منخفضة. ملاحظة : ان هذا الوضع لا يمثل خطر مباشر يتطلب الضغط على الفرامل.

12 رفع القدم عن دواسة الوقود انت تقود سيارتك بسرعة 50 كم في الساعة وهنالك اطفال قريبين جدا على الطريق لذلك يجب عليك التقليل من سرعتك عند تجاوزهم لعد التسبب لهم في الارباك والمحافظة على الامان اكثر.

13 رفع القدم عن دواسة الوقود لكي تستطيع الانعطاف بشكل امن عبر هذا المنعطف الغير واضح يجب عليك التقليل من سرعتك.

14 رفع القدم عن دواسة الوقود تقود سيارتك بسرعة 20 كم في الساعة وهنالك طفل يقود دراجة الهوائية امامك ولا توجد امكانية لتجاوز الدراجة بشكل امن وذلك بسبب ضيق الطريق. لذلك يجب عليك التقليل من سرعتك والبقاء خلف الدراجة بمسافة كافية لا تقل عن 10 امتار للامان.

15 رفع القدم عن دواسة الوقود تقود سيارتك بسرعة 60 كم في الساعة على هذا الطريق الضيق. وهنالك سائق قادم في الجهة المقابلة. لذلك يجب عليك التقليل من سرعتك لتتناسب مع تجاوز السائقين في الجهة المقابلة.

16 رفع القدم عن الدواسة الوقود ترى امامك السرعة القصوى الاجبارية اصبحت 80 كم في الساعة. وانت تسير بسرعة 90 كم في الساعة لذلك يتوجب عليك التقليل من سرعتك.

17 رفع القدم عن دواسة الوقود انت تقود بسرعة 30 كم في الساعة في طريق ضيق وهنالك سائق دراجة ذات محرك في الجهة المقابلة لذلك عليك التقليل من سرعتك عند تجاوز سائق الدراجة لمنع ارباك السائق الاضعف. كذلك هنالك مطب صناعي على الطريق لتقليل من سرعتك.

18 رفع القدم عن دواسة الوقود مع تقليل السرعة تستطيع ان تتجاوز سائقي السيارات في الجهة المقابلة بامان. كذلك هنالك مطب صناعي امامك.

19 رفع القدم عن دواسة الوقود ترفع قدمك عن دواسة الوقود للتقليل من سرعتك بسبب المنحنى الذي امامك. حيث ان الرؤيا في المنحنى غير واضحة بشكل جيد. ولربما تاتي شاحنة في الاتجاة المقابل مما يتسبب في خطر على السائقين.

20 رفع القدم عن دواسة الوقود عندما ترى هذة الدمية الخضراء على الطريق معنى هذا انة من المحتمل وجود اطفال على الطريق. لذلك يجب عليك ان تقلل من سرعتك وتنتبة جيدا لوجود الاطفال.

21 لاشئ لا تفعل شي الطريق امامك فارغ وواسع وسرعتك داخل المدينة مناسبة.

22 لاشئ لا تفعل شي انت ذاهب الى الامام والطريق امامك فارغ وسرعتك مناسبة على الطريق السريع.

23 لاشئ لا تفعل مع سرعة 40 كم في الساعة يمكنك ان تتجاوز سائق الدراجة الهوائية بامان.

24 لاشئ الطريق امامك واسع والمسافة بينك وبين السيارة في الجهة المقابلة مناسبة اذا مع سرعة 40 كم في الساعة تستطيع تجاوز السيارة المقابلة بامان ولا وجود للعوائق هنا.

25 لاشئ ان سرعة 80 كم في الساعة مناسبة وامنة لهذا الطريق.

التعرف على الخطر (2)

1 ماذا تفعل ؟

- الضغط على الفرامل
- رفع القدم عن دواسة الوقود
- لاشئ

2 ماذا تفعل ؟

- الضغط على الفرامل
- رفع القدم عن دواسة الوقود
- لاشئ

3 ماذا تفعل ؟

- الضغط على الفرامل
- رفع القدم عن دواسة الوقود
- لاشئ

4 ماذا تفعل ؟

- الضغط على الفرامل
- رفع القدم عن دواسة الوقود
- لاشئ

5 ماذا تفعل ؟

- الضغط على الفرامل
- رفع القدم عن دواسة الوقود
- لاشئ

6 ماذا تفعل ؟



- الضغط على الفرامل
- رفع القدم عن دواسة الوقود
- لاشئ

7 ماذا تفعل ؟



- الضغط على الفرامل
- رفع القدم عن دواسة الوقود
- لاشئ

8 ماذا تفعل ؟

- الضغط على الفرامل
- رفع القدم عن دواسة الوقود
- لاشئ

9 ماذا تفعل ؟

- الضغط على الفرامل
- رفع القدم عن دواسة الوقود
- لاشئ

10 ماذا تفعل ؟

- الضغط على الفرامل
- رفع القدم عن دواسة الوقود
- لاشئ

11 ماذا تفعل ؟

- الضغط على الفرامل
- رفع القدم عن دواسة الوقود
- لاشئ

12 ماذا تفعل ؟

- الضغط على الفرامل
- رفع القدم عن دواسة الوقود
- لاشئ

13 ماذا تفعل ؟

- الضغط على الفرامل
- رفع القدم عن دواسة الوقود
- لاشئ

14 ماذا تفعل ؟

- الضغط على الفرامل
- رفع القدم عن دواسة الوقود
- لاشئ

15 ماذا تفعل ؟

- الضغط على الفرامل
- رفع القدم عن دواسة الوقود
- لاشئ

16 ماذا تفعل ؟

- الضغط على الفرامل
- رفع القدم عن دواسة الوقود
- لاشئ

17 ماذا تفعل ؟

- الضغط على الفرامل
- رفع القدم عن دواسة الوقود
- لاشئ

18 ماذا تفعل ؟

- الضغط على الفرامل
- رفع القدم عن دواسة الوقود
- لاشئ

19 ماذا تفعل ؟

- الضغط على الفرامل
- رفع القدم عن دواسة الوقود
- لاشئ

20 ماذا تفعل ؟

- الضغط على الفرامل
- رفع القدم عن دواسة الوقود
- لاشئ

21 ماذا تفعل ؟

- الضغط على الفرامل
- رفع القدم عن دواسة الوقود
- لاشئ



22 ماذا تفعل ؟

- الضغط على الفرامل
- رفع القدم عن دواسة الوقود
- لاشئ

23 ماذا تفعل ؟

- الضغط على الفرامل
- رفع القدم عن دواسة الوقود
- لاشئ

24 ماذا تفعل ؟

- الضغط على الفرامل
- رفع القدم عن دواسة الوقود
- لاشئ



25 ماذا تفعل ؟

- الضغط على الفرامل
- رفع القدم عن دواسة الوقود
- لاشئ

اجوبة وشرح الفصل الحادي عشر (2)

1 الضغط على الفرامل السيارة التي امامك ترجع الى الخلف للتوقف في المكان المخصص للوقوف (الباركن). وترى ايضا ان الطريق ضيق وسرعتك عالية لمثل هذا الوضع. لذلك يجب عليك التوقف تماما لحين انتهاء السائق الاخر من الباركن.

2 الضغط على الفرامل في هذا الطريق الضيق يجب عليك التوقف على جهة اليمين لفسح المجال للشاحنة من العبور وذلك لكبر حجمها. حاول ان تجد مكان للوقوف يكون امنا حتى لو كان على الجانب الترابي.

3 رفع القدم عن دواسة الوقود انت تقود بسرعة 30 كم في الساعة في شارع ضيق وفي الجهة المقابلة سائق دراجة ذات محرك لذلك يجب عليك التقليل من سرعتك منعا لارباك سائق الدراجة. كذالك هنالك اطفال يلعبون على الرصيف يجب الانتباة اليهم جيدا لانك لا تستطيع توقع تصرفات الاطفال على الطريق.

4 رفع القدم عن دواسة الوقود يجب عليك التقليل من سرعتك برفع قدمك عن دواسة الوقود لتعبر هذا المنحنى الشديد بشكل امن.

5 رفع القدم عن دواسة الوقود ترى على جانب الطريق علامة احذر وجود مدرسة اطفال لذلك يجب عليك تقليل السرعة والقيادة بحذر. كذلك هنالك منحنى امامك والرؤيا فية معدومة.

6 رفع القدم عن دواسة الوقود ان وهج الضوء وظل الاشجار المتغير باستمرار يسبب الارباك للعين في السرع العالية. لذلك يجب عليك التقليل من السرعة والقيادة بامان.

7 لاشئ مع سرعة 20 كم في الساعة تستطيع بامان تجاوز السائق في الجهة المقابلة.

8 لاشئ ان سرعة 20 كم في الساعة لتجاوز حافلة نقل الركاب تعتبر سرعة مناسبة. وذلك لوجود احتمال ان يرغب احد المسافرين من العبور امام الحافلة وهو غير منتبه.

9 الضغط على الفرامل في هذة الحالة لايمكنك من تجاوز سائق الدراجة التي امامك لوجود سائق اخر في الجهة المقابلة. لذلك عليك الانتظار لحين عبور سائق الدراجة في الجهة المقابلة لتستطيع ان تتجاوز السائق الذي امامك بامان. ويجب عليك وضع مسافة امان كافية تقدر بمتر ونص بينك وبين الدراجة الهوائية التي تتجاوزها. كما يجب عليك وضع مسافة امان بينك وبين السائق الذي امامك.

10 الضغط على الفرامل انت تقود في منطقة تجارية وهنالك اطفال يقودون الدراجات الهوائية بكل الاتجاهات لذلك يجب عليك التوقف تماما الى ان يستقر الوضع ويذهب جميع السائقين الاطفال بشكل كامل.

11 لاشئ انت تقود بسرعة مناسبة للطريق السريع ولا شئ يمنع من ذلك.

12 الضغط على الفرامل السائق الذي امامك قد ضغط على الفرامل لذلك يجب عليك انت ايضا الضغط على الفرامل لتحافظ على مسافة الامان بينك وبين السائق الذي امامك. كذلك هنالك منحنى امامك يجب عليك التقليل من سرعتك لاجتياز المنعطف بامان.

13 رفع القدم عن دواسة الوقود ان المسافة بينك وبين الدراجة ذات المحرك قصيرة. لذلك عليك التقليل من سرعتك لزيادة مسافة الامان بينكما.

14 الضغط على الفرامل هنالك مشاة يعبرون الطريق من منطقة عبور المشاة. لذلك يجب عليك التوقف تماما لغاية عبور جميع المشاة الى الرصيف الاخر بامان.

15 رفع القدم عن دواسة الوقود المسافة بينك وبين السائق الذي امامك قليلة لذلك يجب تقليل السرعة لتصبح مسافة الامان اكبر. وهنالك ايضا شاحنة ترغب في الدخول الى الطريق السريع لذلك يجب عليك التنبؤ بان السائق الذي امامك ربما سوف يقلل من سرعتة لفسح المجال للشاحنة من الدخول علما ان السرعة القصوى للشاحنة على الطريق السريع هية 90 كم في الساعة.

16 رفع القدم عن دواسة الوقود يجب عليك التقليل من سرعتك اذا كانت الاحوال الجوية غير جيدة. كذلك كلما كانت الاحوال الجوية سيئة اكثر كلما وجب عليك التقليل من السرعة اكثر.

17 رفع القدم عن دواسة الوقود الشاحنة التي امامك ترغب في الدخول الى الطريق السريع. لذلك يجب عليك اعطائها المجال لذلك بتخفيف السرعة. خصوصا اذا علمت ان السرعة القصوى للشاحنة هية 90 كم في الساعة على الطريق السريع.

18 الضغط على الفرامل ان المسافة بينك وبين الاشارة الضوئية كافية للتوقف بشكل امن.

19 لاشئ مع سرعة 30 كم في الساعة يمكنك من تجاوز السائقين المقابلين لك بامان.

20 لاشئ هنالك مسافة امان كافية لتجاوز السائق في الجهة المقابلة لك.

21 الضغط على الفرامل يوجد اطفال يلعبون على الرصيف وغير منتبهين للطريق. كذلك هم قريبين جدا على الطريق. لذلك يجب عليك الضغط على الفرامل والوقوف تماما اذا تطلب الامر لانك لاتستطيع التنبؤ في رد فعل الاطفال على الطريق. فربما يدفع احدهم الاخر او يجري الواحد خلف الاخر بشكل مفاجئ غير منتبهين للطريق.

22 رفع القدم عن دواسة الوقود يجب عليك التقليل من سرعتك لكي لا تثير قلق الحصان الذي امامك عند التجاوز. دائما يصعب التنبؤ برد فعل الحيوانات على الطريق.

23 الضغط على الفرامل هنالك مشاة امامك غير منتبهين للطريق. لذلك يجب عليك التقليل من السرعة والوقوف اذا تطلب الامر. كذلك هنالك مطب صناعي امامك يجب تقليل السرع لتتناسب معة.

24 الضغط على الفرامل يجب عليك التقليل من سرعتك لتستطيع الانعطاف الى جهة اليسار حسب العلامات الموجودة على الطريق بشكل امن.

25 رفع القدم عن دواسة الوقود هنالك اشخاص على الرصيف غير منتبهين على الطريق كذلك توجد منطقة لعبور المشاة لربما يرغب احدهم بشل مفاجئ العبور من غير الانتباة الى الطريق.

1. Is deze pers
- Voetganger
- Bestuurder
2. Is deze pers
3. Iemand loop
4. Iemand loop
5. Iemand loop
6. Is een ruite
7. Een skatebo
8. Iemand loo
9. Iemand fiet
10. Iemand zit
11. Iemand ri
12. Iemand ri
ganger?
13. Iemand ri
ganger?
14. Iemand ri
15. Iemand lo